المملكة العربية السعودية
وزارة التعليم
إدارة التعليم بـ.....



اختبار الفترة الثانية الصف الخامس
المادة: مهارات رقمية
الفصل الدراسي الأول لعام 1448 هـ

اسم الطالب:..... الصف: .....

20

السؤال الأول: ضع علامة صح أمام العبارة الصحيحة وعبارة خطأ أمام العبارة الخاطئة:

10

1- أجهزة الالتقاط مخصصة لالتقاط الصوت فقط. ( )
2- ملفات النصوص أكبر حجما من ملفات الفيديو. ( )
3- كل ما يعرض في الإ مجاني بلا حقوق ملكية. ( )
4- عند البحث عن ا جم أو اللون أو النوع من أدوات البحث. ( )
5- الخوارزمية هي مجموعة من التعليمات المتسلسلة والخاصة بحل مشكلة أو إكمال مهمة معينة. ( )
6- يسمى منشئ البرنامج: مبرمجا ومهندس برمجيات ومطور برمجيات. ( )
7- الكائن في سكراتش يمكن أن يكون نصا أو صورة أو رسمة. ( )
8- معظم الكائنات لها مظاهر تجعلها تبدو وكأنها تقوم بحركات مختلفة ( )
9- توجد لبنة (إذا () ثم (if () then) ضمن فئة لبنات (الأحداث) صفراء اللون. ( )
10- تنتمي لبنة (ارتد إذا كنت عند الحافة) للبنات الحركة زرقاء اللون. ( )

10

السؤال الثاني: اختر الإجابة الصحيحة:

1- لحفظ الصور أضغط عليها بزر الفأرة الأيمن وأختار :		
أ- فتح.	ب- حذف.	ج- حفظ الصورة.
2- يستخدم برنامج صور مايكروسوفت لإنشاء وتحرير.....		
أ- جداول الإكسل.	ب- مقاطع الفيديو.	ج- عروض البوربوينت.
3- أكبر وحدات الحجم هي:		
أ- جيجا بايت.	ب- كيلو بايت.	ج- ميقا بايت.
4- عند البحث عن الصور أستطيع تحديد:		
أ- الحجم واللون.	ب- النوع.	ج- جميع ما سبق.
5- لتكرار الكائن فى سكراتش نضغط عليه باليمين ونختار:		
أ- تصدير.	ب- مضاعفة.	ج- حذف.
6- نستخدم دائما مع لبنة (اسأل () وانتظر) لبنة:		
أ- (الإجابة answer)	ب- اتجه نحو الاتجاه.	ج- تحرك ( ) خطوة.
7- لجعل الكائن يرتد عند لمس الحافة نستعمل لبنة:		
أ- كرر باستمرار.	ب- تحرك ( ) خطوة.	ج- ارتد إذا كنت عند الحافة.
8- لبنات التكرار توجد ضمن فئة:		
أ- الصوت.	ب- التحكم.	ج- الصوت.
9- أكثر اللبنات استخدام في سكراتش هي لبنة:		
أ- لبنة كرر باستمرار.	ب- لبنة المظهر التالي.	ج- انتظر () ثانية.
10- الزر الافتراضي للبنة مفتاح () مضغوط هو زر:		
أ- مفتاح الإدخال Enter.	ب- مفتاح شفت Shift.	ج- مفتاح المسافة.

معلم / ة المادة / .....

نموذج الإجابة

اختبار الفترة الثانية الصف الخامس
المادة: مهارات رقمية
الفصل الدراسي الأول لعام 1448 هـ

اسم الطالب:..... الصف: .....

20

السؤال الأول: ضع علامة صح أمام العبارة الصحيحة وعبارة خطأ أمام العبارة الخاطئة:

10

1- أجهزة الالتقاط مخصصة لالتقاط الصوت فقط. (✗)
2- ملفات النصوص أكبر حجما من ملفات الفيديو. (✗)
3- كل ما يعرض في الإنترنت من صور وفيديو يعتبر مجاني بلا حقوق ملكية. (✗)
4- عند البحث عن الصور لا أستطيع تحديد الحجم أو اللون أو النوع من أدوات البحث. (✗)
5- الخوارزمية هي مجموعة من التعليمات المتسلسلة والخاصة بحل مشكلة أو إكمال مهمة معينة. (✓)
6- يسمى منشئ البرنامج: مبرمجا ومهندس برمجيات ومطور برمجيات. (✓)
7- الكائن في سكراتش يمكن أن يكون نصا أو صورة أو رسمة. (✓)
8- معظم الكائنات لها مظاهر تجعلها تبدو وكأنها تقوم بحركات مختلفة (✓)
9- توجد لبنة (إذا () ثم (if () then) ضمن فئة لبنات (الأحداث) صفراء اللون. (✗)
10- تنتمي لبنة (ارتد إذا كنت عند الحافة) للبنات الحركة زرقاء اللون. (✓)

10

السؤال الثاني: اختر الإجابة الصحيحة:

1-	**لحفظ الصور أضغط عليها بزر الفأرة الأيمن وأختار :**		
	أ- فتح.	ب- حذف.	ج- حفظ الصورة.
2-	**يستخدم برنامج صور مايكروسوفت لإنشاء وتحرير.....**		
	أ- جداول الإكسل.	ب- مقاطع الفيديو.	ج- عروض البوربوينت.
3-	**أكبر وحدات الحجم هي:**		
	أ- جيجا بايت.	ب- كيلو بايت.	ج- ميقا بايت.
4-	**عند البحث عن الصور أستطيع تحديد:**		
	أ- الحجم واللون.	ب- النوع.	ج- جميع ما سبق.
5-	**لتكرار الكائن فى سكراتش نضغط عليه باليمين ونختار:**		
	أ- تصدير.	ب- مضاعفة.	ج- حذف.
6-	**نستخدم دائما مع لبنة (اسأل () وانتظر) لبنة:**		
	أ- (الإجابة answer)	ب- اتجه نحو الاتجاه.	ج- تحرك ( ) خطوة.
7-	**لجعل الكائن يرتد عند لمس الحافة نستعمل لبنة:**		
	أ- كرر باستمرار.	ب- تحرك ( ) خطوة.	ج- ارتد إذا كنت عند الحافة.
8-	**لبنات التكرار توجد ضمن فئة:**		
	أ- الصوت.	ب- التحكم.	ج- الصوت.
9-	**أكثر اللبنات استخدام في سكراتش هي لبنة:**		
	أ- لبنة كرر باستمرار.	ب- لبنة المظهر التالي.	ج- انتظر () ثانية.
10-	**الزر الافتراضي للبنة مفتاح () مضغوط هو زر:**		
	أ- مفتاح الإدخال Enter.	ب- مفتاح شفت Shift.	ج- مفتاح المسافة.

معلم / ة المادة / .....

المملكة العربية السعودية
وزارة التعليم
إدارة تعليم الرياض

٢٠

الصف: خامس ابتدائي

اختبار الفترة الثانية لمادة المهارات الرقمية للصف الخامس ابتدائي الفصل الدراسي الأول١٤٤٨ هـ

اسم الطالبة: ..... الصف: .....

١١



اختاري الإجابة الصحيحة:

١-نستطيع في برنامج الوورد ادراج:					
أ	الصور	ب	الأشكال	ج	جميع ما سبق
٢- من أجهزة الالتقاط التي تستخدم للصوت					
أ	الكاميرا الرقمية	ب	المايكرفون	ج	الماسح الضوئي
٣- يمكن إضافة كائن في سكراتش من خلال					
أ	جهاز الحاسب	ب	مكتبة سكراتش	ج	جميع ما سبق
٤- هو مجموعة من التعليمات المكتوبة بإحدى لغات البرمجة ينفذها الحاسب					
أ	برنامج الحاسب	ب	الطابعة	ج	الشاشة
٥- لحذف الكلمات والجمل في الوورد نستخدم زر					
أ	Enter	ب	Tab	ج	Delete -BackSpace



ضعي علامة ✓ أو ✗ أمام العبارات التالية:

١- يفيد ادراج الصور والاشكال في جعل المستند اكثر جاذبية	
٢-لانستطيع الكتابة داخل مجموعة الاشكال وتنسيقها	
٣-يزداد وضوح الصورة كلما كان حجمها اكبر	
٤-المسافة البادئة تعني المسافة بين الاسطر والكلمات	
٥-الرسومات التوضيحية تجعل المستند اكثر تعقيدا ويصعب فهمه	
٦-أجهزة الالتقاط مخصصة لاالتقاط الصوت فقط	

حصتي المدرسية اونلاين

٩



رتبي وحدات القياس التالية من الأصغر إلى الأكبر:

تيرا بايت | جيجا بايت | ميجا بايت | كيلو بايت | بايت



وصلي بالأرقام ما يناسب:

١- يعرض خطوات غير متسلسلة.	( ) هيكلي
٢- يستعمل لإنشاء مخطط منظم /هيكل تنظيمي.	( ) قائمة
٣- يعرض علاقة متناسقة مع الترتيب من الأعلى أو الأسفل.	( ) علاقة
٤-للمقارنة أو لعرض العلاقة بين فكرتين.	( ) هرمي

انتهت الاسئلة

أرجو لكن التوفيق

معلمة المادة/ أمل الحميدي

المملكة العربية السعودية
وزارة التعليم
إدارة تعليم الرياض

نموذج الإجابة

الصف: خامس ابتدائي

اختبار الفترة الثانية لمادة المهارات الرقمية للصف الخامس ابتدائي الفصل الدراسي الأول١٤٤٨ هـ

اسم الطالبة: ..... الصف: .....

١١



اختاري الإجابة الصحيحة:

١-نستطيع في برنامج الوورد ادراج:							
أ	الصور	ب	الأشكال	ج	جميع ما سبق		
٢- من أجهزة الالتقاط التي تستخدم للصوت							
أ	الكاميرا الرقمية	ب	المايكرفون	ج	الماسح الضوئي		
٣- يمكن إضافة كائن في سكراتش من خلال							
أ	جهاز الحاسب	ب	مكتبة سكراتش	ج	جميع ما سبق		
٤- هو مجموعة من التعليمات المكتوبة بإحدى لغات البرمجة ينفذها الحاسب							
أ	برنامج الحاسب	ب	الطابعة	ج	الشاشة		
٥- لحذف الكلمات والجمل في الوورد نستخدم زر							
أ	Enter	ب	Tab	ج	Delete -BackSpace		



ضعي علامة ✓ أو ✗ أمام العبارات التالية:

١- يفيد ادراج الصور والاشكال في جعل المستند اكثر جاذبية	✓
٢-لانستطيع الكتابة داخل مجموعة الاشكال وتنسيقها	✗
٣-يزداد وضوح الصورة كلما كان حجمها اكبر	✓
٤-المسافة البادئة تعني المسافة بين الاسطر والكلمات	✗
٥-الرسومات التوضيحية تجعل المستند اكثر تعقيدا ويصعب فهمه	✗
٦-أجهزة الالتقاط مخصصة لاالتقاط الصوت فقط	✗

حصتي المدرسية اونلاين

٩



رتبي وحدات القياس التالية من الأصغر إلى الأكبر:

تيرا بايت | جيجا بايت | ميجا بايت | كيلو بايت | بايت

بايت ← كيلو بايت ← ميجا بايت ← جيجا بايت ← تيرا بايت



وصلي بالأرقام ما يناسب:

١- يعرض خطوات غير متسلسلة.

٢- يستعمل لإنشاء مخطط منظم /هيكل تنظيمي.

٣- يعرض علاقة متناسقة مع الترتيب من الأعلى أو الأسفل.

٤-للمقارنة أو لعرض العلاقة بين فكرتين.

2 هيكلي

1 قائمة

4 علاقة

3 هرمي

انتهت الاسئلة

أرجو لكن التوفيق

معلمة المادة/ أمل الحميدي

اختبار الفترة الثانية للفصل الدراسي الأول لعام 1448 هـ للصف **الخامس**

10

اسم الطالبة: ..... الصف: .....

طالبتي مبرمجة المستقبل تذكري ان التفوق في مجال التكنولوجيا يعزز شعور الفخر

5

السؤال الأول / اختاري الإجابة الصحيحة لكل من العبارات التالية :

1	أي من التالي يُعد مثالًا على الوسائط المتعددة؟		
نص فقط	صوت وصورة وفيديو	ج- رقم هاتف	
2	ما البرنامج الذي يستخدم لإنشاء القصص المصورة والعروض التفاعلية؟		
وورد	سكراتش	ج- الآلة الحاسبة	
3	الصوت يُعتبر من أنواع:		
الملفات النصية	الوسائط المتعددة	ج- البرامج التعليمية	
4	الصيغة المستخدمة غالبًا لحفظ الصور هي:		
MP3	JPG	DOCX	
5	الوسائط المتعددة تُستخدم في:		
أ_ الألعاب والعروض التعليمية	ب_ الحسابات الرياضية فقط	ج- كتابة النصوص فقط	

5

السؤال الثاني-أ / ضع علامة (√) أو (X) أمام العبارات التالية:

1	لا يمكن إضافة صوت إلى العروض التقديمية	
2	تعد الفيديوهات من عناصر الوسائط المتعددة	
3	ملف MP3 هو ملف صوت	
4	لا يمكن استخدام الوسائط المتعددة في التعليم	
5	لا يمكن ادراج صور من الانترنت	

أنتم الأمل بمستقبل أفضل، مُباركة جهودكم، وبالنجاح للجميع.

انتهت الأسئلة

معلمة المادة : أثير التويجري

حصتي
المدرسية اونلاين

نموذج الإجابة

الاختبار الفترة الثانية للفصل الدراسي الأول لعام 1448 هـ للصف **الخامس**

اسم الطالبة: ..... الصف: .....

طالبتي مبرمجة المستقبل تذكري ان التفوق في مجال التكنولوجيا يعزز شعور الفخر

10

5

السؤال الأول / اختاري الإجابة الصحيحة لكل من العبارات التالية :

1	أي من التالي يُعد مثالًا على الوسائط المتعددة؟		
نص فقط	صوت وصورة وفيديو	ج- رقم هاتف	
2	ما البرنامج الذي يستخدم لإنشاء القصص المصورة والعروض التفاعلية؟		
وورد	سكراتش	ج- الآلة الحاسبة	
3	الصوت يُعتبر من أنواع:		
الملفات النصية	الوسائط المتعددة	ج- البرامج التعليمية	
4	الصيغة المستخدمة غالبًا لحفظ الصور هي:		
MP3	JPG	DOCX	
5	الوسائط المتعددة تُستخدم في:		
أ_ الألعاب والعروض التعليمية	ب_ الحسابات الرياضية فقط	ج- كتابة النصوص فقط	

5

السؤال الثاني-أ / ضع علامة (√) أو (X) أمام العبارات التالية:

1	لا يمكن إضافة صوت إلى العروض التقديمية	X
2	تعد الفيديوهات من عناصر الوسائط المتعددة	√
3	ملف MP3 هو ملف صوت	√
4	لا يمكن استخدام الوسائط المتعددة في التعليم	X
5	لا يمكن ادراج صور من الانترنت	X

أنتم الأمل بمستقبل أفضل، مُباركة جهودكم، وبالنجاح للجميع.

انتهت الأسئلة

معلمة المادة : أثير التويجري

الاسم : _____ الصف :

اختبار الفترة الثانية الفصل الدراسي الأول ـ مادة المهارات الرقمية ـ الصف الخامس الابتدائي

20



اختاري الإجابة الصحيحة :

1	أي من التالي يُعد مثالًا على الوسائط المتعددة ؟		
	أـ نص فقط	بـ صوت وصورة وفيديو	جـ رقم هاتف
2	ما البرنامج الذي يستخدم لإنشاء القصص المصورة والعروض التفاعلية ؟		
	أـ وورد	بـ سكراتش	جـ الآلة الحاسبة
3	الصوت يُعتبر من أنواع:		
	أـ الوسائط المتعددة	بـ الملفات النصية	جـ البرامج التعليمية
4	الصيغة المستخدمة غالبًا لحفظ الصور هي:		
	أـ MP3	بـ JPJ	PDF
5	تستخدم خاصية السحب والإفلات في سكراتش لـ:		
	أـ كتابة رسالة	بـ تحريك المقاطع البرمجية	جـ تغيير اللغة
6	أيقونة العلم الأخضر في سكراتش تستخدم لـ:		
	أـ بدء تشغيل المشروع	بـ حذف الكائن	جـ تغيير الخلفية
7	من أمثلة ملفات الفيديو:		
	أـ PNG	ب MP4	جـ DOEX
8	الكائن في سكراتش هو:		
	أ الخلفية فقط	ب العنصرالذي يتحرك ويتفاعل	جـ العنوان الرئيسي
9	أوامر الحركة في سكراتش تستخدم لـ:		
	أ تغيير الصوت	ب تغيير الألوان	جـ تحريك الكائن
10	الوسائط المتعددة تستخدم في:		
	أ الألعاب والعروض التعليمية	ب الحسابات الرياضية فقط	جـ كتابة النصوص فقط

ضعي علامة صح أمام العبارة الصحيحة وعبارة خطأ أمام العبارة الخاطئة:

1. تعد الصور جزءًا من الوسائط المتعددة ( )
2. لا يمكن إضافة صوت إلى العروض التقديمية ( )
3. في سكراتش يمكن للكائن تنفيذ عدة أوامر برمجية ( )
4. تعد الفيديوهات من عناصر الوسائط المتعددة ( )
5. الواجهة في سكراتش تحتوي على المقاطع البرمجية والكائنات والخلفيات ( )
6. زر العلم الأخضر يستخدم لإيقاف ( )
7. يمكن تغيير خلفية المسرح في سكراتش بسهولة ( )
8. ملف MP3 هو ملف صوت ( )
9. يمكن للكائن في سكراتش أن يتحدث باستخدام فقاعات الكلام ( )
10. لا يمكن استخدام الوسائط المتعددة في التعليم ( )

انتهت الأسئلة

أرجو لكم دوام التوفيق والنجاح

الاسم : _____

نموذج الإجابة

اختبار الفترة الثانية الفصل الدراسي الأول ـ مادة المهارات الرقمية ـ الصف الخامس الابتدائي

20



اختاري الإجابة الصحيحة :

1	أي من التالي يُعد مثالًا على الوسائط المتعددة ؟		
أـ	نص فقط	بـ صوت وصورة وفيديو	جـ رقم هاتف
2	ما البرنامج الذي يستخدم لإنشاء القصص المصورة والعروض التفاعلية ؟		
أـ	وورد	بـ سكراتش	جـ الآلة الحاسبة
3	الصوت يُعتبر من أنواع:		
أـ	الوسائط المتعددة	بـ الملفات النصية	جـ البرامج التعليمية
4	الصيغة المستخدمة غالبا لحفظ الصور هي:		
أـ	MP3	بـ JPJ	جـ PDF
5	تستخدم خاصية السحب والإفلات في سكراتش لـ:		
أـ	كتابة رسالة	بـ تحريك المقاطع البرمجية	جـ تغيير اللغة
6	أيقونة العلم الأخضر في سكراتش تستخدم لـ:		
أـ	بدء تشغيل المشروع	بـ حذف الكائن	جـ تغيير الخلفية
7	من أمثلة ملفات الفيديو:		
أـ	PNG	ب MP4	جـ DOEX
8	الكائن في سكراتش هو:		
أ	الخلفية فقط	ب العنصر الذي يتحرك ويتفاعل	جـ العنوان الرئيسي
9	أوامر الحركة في سكراتش تستخدم لـ:		
أ	تغيير الصوت	ب تغيير الألوان	جـ تحريك الكائن
10	الوسائط المتعددة تستخدم في:		
أ	الألعاب والعروض التعليمية	ب الحسابات الرياضية فقط	جـ كتابة النصوص فقط

ضعي علامة صح أمام العبارة الصحيحة وعبارة خطأ أمام العبارة الخاطئة:

1. تعد الصور جزءًا من الوسائط المتعددة (✓)
2. لا يمكن إضافة صوت إلى العروض التقديمية (✗)
3. في سكراتش يمكن للكائن تنفيذ عدة أوامر برمجية (✓)
4. تعد الفيديوهات من عناصر الوسائط المتعددة (✓)
5. الواجهة في سكراتش تحتوي على المقاطع البرمجية والكائنات والخلفيات (✓)
6. زر العلم الأخضر يستخدم لإيقاف المشروع (✗)
7. يمكن تغيير خلفية المسرح في سكراتش بسهولة (✓)
8. ملف MP3 هو ملف صوت (✓)
9. يمكن للكائن في سكراتش أن يتحدث باستخدام فقاعات الكلام (✓)
10. لا يمكن استخدام الوسائط المتعددة في التعليم (✗)

حصتي
المدرسية اونلاين

انتهت الأسئلة

أرجو لكم دوام التوفيق والنجاح

المملكة العربية السعودية.
وزارة التعليم.
إدارة تعليم.....

بسم الله الرحمن الرحيم



المادة المهارات الرقمية.
خامس ابتدائي

اختبار الوحدة الثالثة " الوسائط المتعددة "

الاسم :

1	أي من الأجهزة التالية يستخدم بشكل أساسي لتسجيل المقاطع الصوتية؟			
	الماسح الضوئي	الكاميرا الرقمية	الميكروفون	الطابعة
2	إذا كان لديك ملف أغنية، فما هو الامتداد الأكثر احتمالاً له؟			
	.docx	.jpg	mp3	.pdf
3	أي من وحدات قياس حجم الملفات التالية هي الأكبر؟			
	(KB) كيلوبايت	(MB) ميجابايت	(GB) جيجابايت	(Byte) بايت
4	لحفظ عملك في برنامج أوداسيتي كملف صوتي يمكن تشغيله على الهاتف، أي أمر يجب أن تختار؟			
	(Save Project) حفظ المشروع	استيراد صوت (Import Audio)	تصدير كملف MP3 (Export as MP3)	(Open) فتح
5	؟(USB) ماذا يعني الرمز			
	منفذ لتوصيل الشاشة	منفذ لتوصيل الإنترنت	منفذ شائع لتوصيل معظم الأجهزة الطرفية بالحاسب	نوع من أنواع الملفات
6	ما هي الأداة التي تستخدمها في محرر الفيديو لإضافة تأثير حركة الكاميرا)مثل التكبير (على صورة ثابتة؟			
	النص	التأثيرات ثلاثية الأبعاد	الحركة	عوامل التصفية
7	عند البحث عن صور في جوجل، أي خيار في قائمة "الأدوات "يساعدك في العثور على الصور المسموح باستخدامها قانونيًا؟			
	الحجم	اللون	حقوق الاستخدام	النوع
8	ماذا تسمى المساحة في أسفل محرر الفيديو التي يتم فيها سحب و إفلات الصور لترتيبها؟			
	مكتبة المشروع	شاشة العرض	(Storyboard) لوحة العمل	شريط القوائم
9	إذا أردت إضافة موسيقى خلفية لمقطع الفيديو الخاص بك، أي خيار من القائمة العلوية ستختار؟			
	صوت مخصص	بطاقة عنوان	حركة	تأثيرات ثلاثية الأبعاد
10	أي من الخيارات التالية يعد انتهاكًا لقوانين حقوق الملكية؟			
	نسخ صورة من موقع إخباري واستخدامها في مشروع تجاري دون إذن.	تنزيل صورة ذات رخصة مشاع إبداعي واستخدامها حسب الشروط.	استخدام صورة قمت بتصويرها بنفسك.	رسم عمل فني بنفسك.

السؤال الثاني :

حدد كلمة صح أو خطأ لكل فقرة من الفقرات الآتية:

1	.في برنامج أوداسيتي، يمكنك دمج مقطعين صوتيين ليعملا في نفس الوقت	◯ صح	◯ خطأ
2	تطبيق "صور مايكروسوفت "يتيح دمج الصور والصوت والنص لإنشاء مقطع فيديو.	◯ صح	◯ خطأ
3	.عندما تقوم بتأليف قصيدة أو رسم لوحة، فإنك تملك حقوق نشرها تلقائيًا	◯ صح	◯ خطأ
4	.يستخدم الماسح الضوئي لإدخال المستندات الورقية والصور إلى جهاز الحاسب	◯ صح	◯ خطأ
5	.(KB) أصغر من وحدة الكيلوبايت (MB) وحدة الميجابايت	◯ صح	◯ خطأ
6	.يدل على أنه ملف فيديو pptx. امتداد الملف	◯ صح	◯ خطأ
7	عندما تحفظ عملك كـ"مشروع أوداسيتي"، يمكنك إرساله لصديقك ليستمع إليه مباشرة في مشغل الموسيقى.	◯ صح	◯ خطأ
8	يمكن استخدام أي صورة موجودة على الإنترنت بحرية تامة في أي مشروع دون الحاجة إلى إذن.	◯ صح	◯ خطأ
9	تعني أن العمل بلا حقوق ويمكن (Creative Commons) رخصة المشاع الإبداعي استخدامه بأي شكل.	◯ صح	◯ خطأ
10	لإضافة تأثيرات بصرية متحركة مثل انفجار الألعاب النارية على صورة، نستخدم (Motion). "أداة "الحركة	◯ صح	◯ خطأ

انتهت الأسئلة ,,,,



المملكة العربية السعودية.
وزارة التعليم.
إدارة تعليم.....

نموذج الإجابة

اختبار الوحدة الثالثة " الوسائط المتعددة "	
الاسم :	

1	أي من الأجهزة التالية يستخدم بشكل أساسي لتسجيل المقاطع الصوتية؟			
	الماسح الضوئي	الكاميرا الرقمية	الميكروفون	الطابعة
2	إذا كان لديك ملف أغنية، فما هو الامتداد الأكثر احتمالاً له؟			
	.docx	.jpg	mp3	.pdf
3	أي من وحدات قياس حجم الملفات التالية هي الأكبر؟			
	(KB) كيلوبايت	(MB) ميجابايت	(GB) جيجابايت	(Byte) بايت
4	لحفظ عملك في برنامج أوداسيتي كملف صوتي يمكن تشغيله على الهاتف، أي أمر يجب أن تختار؟			
	(Save Project) حفظ المشروع	استيراد صوت (Import Audio)	MP3 تصدير كملف (Export as MP3)	(Open) فتح
5	؟(USB) ماذا يعني الرمز			
	منفذ لتوصيل الشاشة	منفذ لتوصيل الإنترنت	منفذ شائع لتوصيل معظم الأجهزة الطرفية بالحاسب	نوع من أنواع الملفات
6	ما هي الأداة التي تستخدمها في محرر الفيديو لإضافة تأثير حركة الكاميرا)مثل التكبير (على صورة ثابتة؟			
	النص	التأثيرات ثلاثية الأبعاد	الحركة	عوامل التصفية
7	عند البحث عن صور في جوجل، أي خيار في قائمة "الأدوات "يساعدك في العثور على الصور المسموح باستخدامها قانونيًا؟			
	الحجم	اللون	حقوق الاستخدام	النوع
8	ماذا تسمى المساحة في أسفل محرر الفيديو التي يتم فيها سحب و إفلات الصور لترتيبها؟			
	مكتبة المشروع	شاشة العرض	(Storyboard) لوحة العمل	شريط القوائم
9	إذا أردت إضافة موسيقى خلفية لمقطع الفيديو الخاص بك، أي خيار من القائمة العلوية ستختار؟			
	صوت مخصص	بطاقة عنوان	حركة	تأثيرات ثلاثية الأبعاد
10	أي من الخيارات التالية يعد انتهاكًا لقوانين حقوق الملكية؟			
	نسخ صورة من موقع إخباري واستخدامها في مشروع تجاري دون إذن.	تنزيل صورة ذات رخصة مشاع إبداعي واستخدامها حسب الشروط.	استخدام صورة قمت بتصويرها بنفسك.	رسم عمل فني بنفسك.

السؤال الثاني :

حدد كلمة صح أو خطأ لكل فقرة من الفقرات الآتية:

1	.في برنامج أوداسيتي، يمكنك دمج مقطعين صوتيين ليعملا في نفس الوقت	◯ صح	◯ خطأ
2	تطبيق "صور مايكروسوفت "يتيح دمج الصور والصوت والنص لإنشاء مقطع فيديو.	◯ صح	◯ خطأ
3	.عندما تقوم بتأليف قصيدة أو رسم لوحة، فإنك تملك حقوق نشرها تلقائيًا	◯ صح	◯ خطأ
4	.يستخدم الماسح الضوئي لإدخال المستندات الورقية والصور إلى جهاز الحاسب	◯ صح	◯ خطأ
5	.(KB) أصغر من وحدة الكيلوبايت (MB) وحدة الميجابايت	◯ صح	◯ خطأ
6	.يدل على أنه ملف فيديو pptx. امتداد الملف	◯ صح	◯ خطأ
7	عندما تحفظ عملك كـ "مشروع أوداسيتي"، يمكنك إرساله لصديقك ليستمع إليه مباشرة في مشغل الموسيقى.	◯ صح	◯ خطأ
8	يمكن استخدام أي صورة موجودة على الإنترنت بحرية تامة في أي مشروع دون الحاجة إلى إذن.	◯ صح	◯ خطأ
9	تعني أن العمل بلا حقوق ويمكن (Creative Commons) رخصة المشاع الإبداعي استخدامه بأي شكل.	◯ صح	◯ خطأ
10	لإضافة تأثيرات بصرية متحركة مثل انفجار الألعاب النارية على صورة، نستخدم (Motion). "أداة "الحركة	◯ صح	◯ خطأ

انتهت الأسئلة ,,,,



المادة : المهارات الرقمية

اختبار الفترة الثانية للفصل الأول لعام ١٤٤٨هـ

اسم الطالب :	**الصف : خامس الابتدائي**	
السؤال الأول :اختر الاجابة الصحيحة :		
1- من أجهزة الالتقاط ويستخدم لتسجيل المقاطع الصوتية (الماسح الضوئي – الكاميرا – المايكرفون)		
2- اصغر وحدات قياس حجم الملفات (بايت – كيلو بايت – ميقا بايت)		
3- اكبر وحدات قياس حجم الملفات (ميقا بايت – جيجا بايت – تيرا بايت)		
4- من الوحدات التي تستخدم لقياس حجم الملفات في ذاكرة الحاسب تسمى (كيلو بايت – كيلو متر – جرام)		
5- يمكن البحث عن ملف فديو داخل شبكة الانترنت باستخدام (قوقل – البريد الالكتروني – الرسام)		

السؤال الثاني : أجب بعلامة (✓) على الإجابة الصحيحة و علامة (⊗) على الإجابة الخاطئة	
1- يمكن نقل الصور من الكاميرا الى جهاز الكمبيوتر بدون استخدام أي برامج	
2- تعد حقوق النشر والطبع احد اشكال الحماية	
3- تعد المراسلة الفورية طريقة شائعة للتواصل في الانترنت	
4- لا يمكن حفظ مقطع الفيديو كملف على جهاز الحاسب	
5- في لبنة كرر باستمرار ستنفذ الأمور الموجوده داخلها في تكرار لا نهائي	



مراجعة الوحدة ٣+٤

	هو مجموعة من التعليمات المكتوبة بلغه البرمجة ينفذها الحاسب لتحقيق هدف معين
	هي مجموعة من التعليمات المتسلسلة والخاصه بحل مشكله او إكمال مهمه معينه
	هو مخطط بياني يستخدم لتمثيل الخوارزمية ويعرض الخطوات بتركيبها الصحيح

ضعي علامة ✓ او ✗ امام العبارات التالية:

يفيد ادراج الصور والاشكال في جعل المستند اكثر جاذبية	
لانستطيع الكتابة داخل مجموعة الاشكال وتنسيقها	
يزداد وضوح الصورة كلما كان حجمها اكبر	
المسافة البادئة تعني المسافة بين الاسطر والكلمات	
الرسومات التوضيحية تجعل المستند اكثر تعقيدا ويصعب فهمه	
أجهزة الالتقاط مخصصة لاالتقاط الصوت فقط	

اختاري الإجابة الصحيحة:

١-يستطيع برنامج صور مايكروسوفت لانشاء وتحرير					
أ	الفيديو	ب	النصوص	ج	الصوت
٢- من أجهزة الالتقاط التي تستخدم للصوت					
أ	الكاميرا الرقمية	ب	الماسك	ج	الماسح الضوئي
٣- لااصلاح الصوروقصها نستخدم برنامج					
أ	الوورد	ب	مايكروسوفت الصور	ج	البوربوينت
٤- امتداد الملفات النصية					
أ	MP3	ب	MP4	ج	JPG
٥- لحذف الكلمات والجمل في الوورد نستخدم زر					
أ	Enter	ب	Tab	ج	Delete -BackSpace

رتبي وحدات قياس حجم الملفات من الأصغر للاكبر



صلي العمود الأول بما يناسبه في العمود الثاني

تمييز نهاية العمليات	
اتخاذ قرار	
إدخال بيانات	
تنفيذ الحسابات	

وصلي بالأرقام كل مخطط بما يناسبة:

١- يعرض خطوات غير متسلسلة.

٢- يستعمل لإنشاء مخطط منظم /هيكل تنظيمي.

٣- يعرض علاقة متناسقة مع الترتيب من الأعلى أو الأسفل.

٤-للمقارنة أو لعرض العلاقة بين فكرتين.

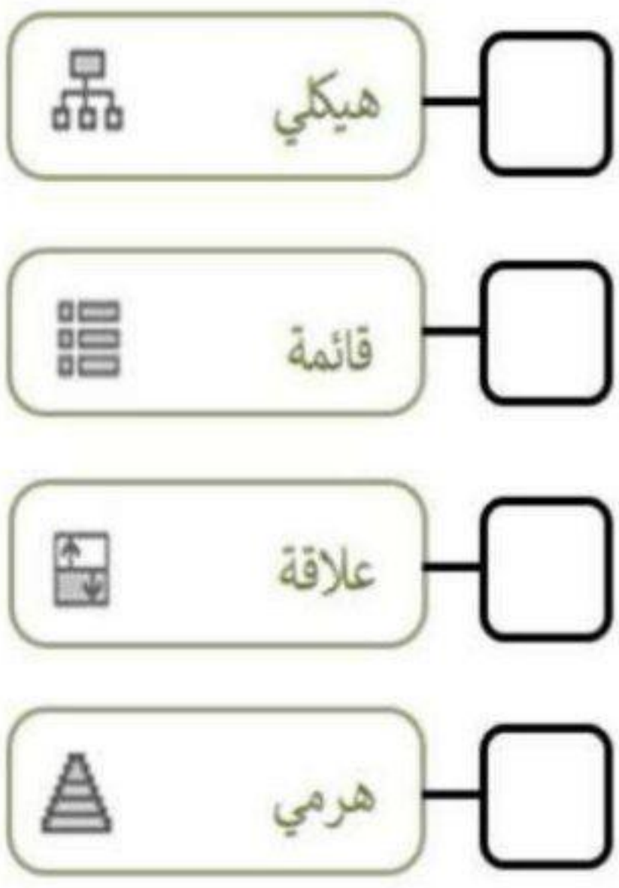

عددي خطوات انشاء برنامج :

١)

٢)

٣)

٤)

حصتي
المدرسية اونلاين

وزارة التعليم
Ministry of Education

أسئلة شاملة لمادة المهارات الرقمية للصف الخامس (الوحدة الأولى - تعلم الأساسيات)

الفصل الدراسي الأول ١٤٤٨هـ

السؤال الأول : اختاري الإجابة الصحيحة مما يلي:

١	من أنواع أجهزة الحاسب			
	(أ) لوحة المفاتيح	(ب) الفأرة	(جـ) مسجل الصوت	(د) الهواتف الذكية
٢	من أدوات الحاسب التفاعلية			
	(أ) الحاسب المحمول	(ب) اللوح الأم	(جـ) شاشة اللمس	(د) قرص الصلب
٣	تُعد وحدة المعالجة المركزية من			
	(أ) مكونات سطح المكتب	(ب) أجزاء الحاسب الرئيسة	(جـ) إعدادات الشاشة	(د)الأجهزة الملحقة للحاسب
٤	يتصل .....بجميع أجزاء الحاسب.			
	(أ) المعالج	(ب) القرص الصلب	(جـ) اللوح الأم	(د) مزود الطاقة
٥	من الأجهزة التي تساعد المستخدم على إدخال البيانات....			
	(أ) وحدة الذاكرة الفلاشية	(ب) لوحة المفاتيح	(ج) بطاقة الذاكرة	(د) مزود الطاقة
٦	من أجهزة التخزين الخارجية			
	(أ) وحدة الذاكرة الفلاشية	(ب) ذاكرة الوصول العشوائي	(جـ)الميكرفون	(د)الهواتف الذكية
٧	لإنشاء اختصار أضغط على الملف بزر الفأرة الأيمن ثم أختار			
	(أ) قص	(ب) إرسال إلى	(جـ) لصق	(د) إنشاء اختصار
٨	بإمكاننا تصغير حجم الملفات والمجلات من خلال عملية تسمى ..... الملفات .			
	(أ) اختصار	(ب) حذف	(ج) ضغط	(د) نسخ
٩	عند حذف مجلد أو ملف عن طريق الخطأ فإنه يتم نقله إلى			
	(أ) التنزيلات	(ب) المستندات	(ج) سلة المحذوفات	(د) البريد
١٠	لنقل مجلد من مكان إلى آخر ننقر على ..... المجلد .			
	(أ) قص	(ب) حذف	(ج) نسخ	(د) لصق
١١	يشير الرمز الموجود في الصورة إلى			
	(أ) مجلد	(ب) ملف مختصر	(ج) ملف مضغوط	(د) فيديو
١٢	يشير الرمز الموجود في الصورة إلى			
	(أ) برنامج	(ب) مجلد	(ج) إدراج صورة	(د) التدقيق الإملائي

السؤال الثاني : ضعي علامة(√) أمام العبارة الصحيحة (x) أمام العبارة الخاطئة:

١-طابعة الليزر أرخص من الطابعات النافثة للحبر. ( )

٢-من أنواع أجهزة الحاسب الحاسوب المحمول . ( )

٣-عند صعوبة العثور على ملف أو برنامج في جهاز الحاسب يمكن إنشاء اختصار له على سطح المكتب. ( )

٤-لا يمكن حذف اختصار ملف بعد إنشائه . ( )

٥-المجلد: هو مساحة تخزينية على القرص الصلب في الحاسب. ( )

٦-يمكننا إضافة البرامج والملفات إلى شريط المهام من خلال سحب وإفلات الأيقونات على شريط المهام. ( )

٧-لا يمكننا حذف الاختصارللملف بعد إنشائه . ( )

٨-تتفاوت درجة ضغط الملفات حسب نوع الملف ومحتواه. ( )

٩-تعتبر الشاشة من المكونات الأساسية لجهاز الحاسب. ( )

١٠-تعتبر الأقراص المضغوطة من أجهزة التخزين الخارجية. ( )

١١-يوجد مزود الطاقة في وحدة النظام. ( )

١٢-عجلة القيادة تُعتبر شكل خاص من لوحة الألعاب. ( )

١٣-لا يمكن العثور على لوحات اللمس في أجهزة الحاسب المحمولة. ( )

١٤-عصا التحكم تُعتبر وحدة شائعة في الألعاب . ( )

١٥-تسمى لوحة الألعاب أيضًا جوي باد . ( )

السؤال الثالث : اكتبي المصطلح المناسب بجانب كل صورة مما يلي :

جهاز إخرج ، جهاز إدخال ، أداة تفاعلية ، جهاز نخزين



----------	
----------	
----------	
----------	
----------	

السؤال الرابع : تتوفر أنواع مختلفة من أجهزة الحاسوب ،اذكري ثلاثة منها :

السؤال الخامس : رتبي خطوات إنشاء اختصار الملف أو البرنامج :

ابحث عن الملف أو البرنامج الذي تريد إنشاء اختصار له

1

اضغط بزر الفأرة الأيمن و من القائمة إنشاء اختصار

2

يتم إنشاء اختصار في نفس الموقع ،يمكن نقل الموقع باستخدام السحب و الافلات

3



دعواتنا لكن بالنجاح والتوفيق

معلمات المادة: حنين المطيري

وزارة التعليم
Ministry of Education

أسئلة شاملة لمادة المهارات الرقمية (الوحدة الثانية – التعامل مع المستندات) للصف الخامس الابتدائي-

الفصل الدراسي الأول ١٤٤٨هـ

السؤال الأول / اختاري الإجابة الصحيحة مما يلي:

١	**يساعدك التفاف النص على ....**			
	(أ) التحكم بكيفية ظهور النص حول الصورة	(ب) تحديد الموضع الصحيح للصورة	(جـ) وضع الصورة خلف النص	(د) إضافة حدود على الصورة
٢	**توجد أداة الصور في ....**			
	(أ) الشريط الرئيسي	(ب) إدراج	(جـ) تنسيق	(د) معاينة
٣	**من مجموعة أنماط الصور نستطيع ....**			
	(أ) إضافة حدود على الصورة	(ب) التحكم بكيفية ظهور النص حول الصورة	(جـ) تحديد الموضع الصحيح للصورة	(د) نضع الصورة أمام النص
٤	**يشير الرمز الموجود في الصورة إلى... .....**			
	(أ) المحاذة للوسط	(ب) المسافة بين الأسطر	(جـ) المحاذة لليمين	(د) المحاذة لليسار
٥	**إضافة الأشكال والرسوم التوضيحية (Smart Art) داخل المستند تمكننا من....**			
	(أ) عرض المعلومات بشكل أوضح	(ب) إتمام العمليات الحسابية	(جـ) سهولة الوصول للإنترنت	(د) مشاهدة الفيديوهات
٦	**هناك طريقة أكثر سهولة لمراجعة الأخطاء الإملائية في الكتابة من خلال ....**			
	(أ) تجاهل الكلمة	(ب) الضغط بالزر الأيمن على الكلمة الخطأ	(جـ) حذف الكلمة	(د) الضغط بالزر الأيسر على الكلمة الخطأ
٧	**يتم تسطير بعض الكلمات بخط أحمر تحت النص لـ .....**			
	(أ) التدقيق الإملائي	(ب) التدقيق النحوي	(جـ) طباعة ملف	(د) البحث في قاموس المفردات
٨	**السبب في ظهور خط أزرق تحت الكلمات ....**			
	(أ) وجود قاموس المرادفات	(ب) التدقيق الإملائي	(جـ) الرسم التوضيحي	(د)التدقيق النحوي
٩	**نبحث عن مرادفات للكلمة باختيار....**			
	(أ) الطباعة	(ب)التدقيق النحوي	(جـ) قاموس المرادفات	(د) التدقيق الإملائي

السؤال الثاني / ضعي ✓ أو ✗ أمام العبارات التالية:

١- المقال الذي يقتصر على النصوص فقط قد يصيب القارئ بالملل. ( )

٢- الصور عبر الانترنت لا تكون محمية بحقوق الطبع والنشر. ( )

٣- يمكننا التعديل على الصور من تبويب تنسيق الصورة . ( )

٤- تحددالمسافة البادئة مسافة الفقرة من الهامش الأيمن أو الأيسر. ( )

٥- يمكن إنشاء حدود وتظليل من تبويب الفقرة. ( )

٦- توجد جميع أدوات تنسق الخطوط في فقرة ملف. ( )

٧- تباعد الأحرف هو المسافة بين أحرف الكلمة . ( )

٨- يمكننا تنسيق الرسم التوضيحي (Smart Art) بتغيير اللون أو الشكل. ( )

٩- يمكننا إضافة الكلمات التي نثق في صحتها إلى قاموس البرنامج. ( )

١٠- هناك طريقة واحدة للعثور على مرادفات للكلمة . ( )

١١- يتم تشغيل قاموس المرادفات من علامة التبويب الرسوم التوضيحية . ( )

١٢- للتحقق من أخطائك يتم اختيار مراجعة من علامة التبويب . ( )

١٣- لإتمام عملية الطباعة نختار من علامة التبويب ملف ثم جديد . ( )

السؤال الثالث / صلي كل عبارة بالرمز المناسب في الصورة التي أمامك :



السؤال الرابع : صلي كل مصطلح باستخداماته :

1 قائمة (List)	يستخدم لعرض العلاقة النسبية أو المتداخلة أو الهرمية .
2 معالجة (Process)	تستخدم للمقارنة أو لعرض العلاقة بين فكرتين
3 هرمي (Pyramid)	تُستخدم لإظهار الخطوات أو العناصر المتسلسلة أو غير المتسلسلة.
4 علاقة (Relationship)	يستخدم لعرض خطوات عملية أو جدولاً زمنيًا لسير عمل معين.



دعواتنا لكن بالنجاح والتوفيق

معلمات المادة: حنين المطيري



أسئلة شاملة لمادة المهارات الرقمية (الوحدة الثالثة – الوسائط المتعددة) للصف الخامس الابتدائي-

الفصل الدراسي الأول ١٤٤٨هـ

السؤال الأول / في الفقرات من(١) إلى (١٠) ضعي ✓أو ✗ أمام العبارات التالية:

١- الماسح الضوئي يُستخدم لالتقاط الصور ومقاطع الفيديو مع إمكانية تخزينها بشكل رقمي على جهاز الحاسب. ( )

٢- لأجهزة الالتقاط منافذ خاصة في جهاز الحاسب تتيح لك نقل البيانات بين أجهزة الإدخال والإخراج، وجهاز الحاسب. ( )

٣- يكفي أن يتصل جهاز الالتقاط بالحاسب لنقل البيانات إليه. ( )

٤- لا يمكنك تحديد الجزء الذي تختارينه من المقطع الصوتي وتشغيله بشكل مستقل عن بقية الأجزاء. ( )

٥- يمكننا دمج أصوات أخرى في نفس الملف الصوتي. ( )

٦- الكيلو بايت أصغر من التيرابايت. ( )

٧- تعد حقوق الطبع والنشر أحد أشكال الحماية.. ( )

٨- توفر شبكة الإنترنت العديد من الصور بأحجام مختلفة، وكلما كانت الصورة أكبر ًحجمًا، كلما كانت أوضح.. ( )

٩- لا يمكنك إضافة تأثيرات ثلاثية الأبعاد إلى مقاطع الفيديو مثل الانتقالات. ( )

١٠- جميع الصور الموجودة على الإنترنت متاحة للاستخدام مجانًا. ( )

السؤال الثاني / املئي الفراغات التالية بما يناسبها:

١- الوحدات التي تستخدم لقياس حجم الملفات في ذاكرة جهاز الحاسب هي ---------- حيث يشغل كل ملف مساحة تخزينية محددة حسب نوع الملف. َ

٢- من أنواع وحدات قياس حجم الملفات:-

أ- ---------- ب- ---------- ج ----------

٣-(برنامج تسجيل، ومحرر مقاطع صوتية رقمي مجاني مفتوح المصدر) يُسمى ----------.

٤-يمكننا استخدام ---------- لمسح وتحرير الصور والرسومات.

حصتي المدرسية اونلاين

السؤال الثالث : صلى كل كلمة بالشكل المناسب :

شغّل (Play)	
إيقاف مؤقت (Pause)	
توقف (Stop)	
سجّل (Record)	
تراجع (Undo)	
كرر (Redo)	
مقياس التشغيل (Playback meter)	

السؤال الرابع : ابحثي عن الامتداد الذي لا يتطابق مع نوع الملف وضعي دائره حوله :

ملف نصي (مع أو بدون صور)	.doc, .docx, .xlsx
ملف صوتي	.wmv, .wma, .mp3
ملف فيديو	.mpg, .mp4, .mkv, .txt
ملف مضغوط	.zip, .rar, .gz, .svg
ملف صورة (صورة أو رسم)	.jpg, .jpeg, .png, .ppt

السؤال الخامس : اختارى الإجابة الصحيحة:

يمكنك اثراء
الشريحة بإضافة

- المعدات المستخدمة في تسجيل الصوت والبرامج لتحرير الصوت والفيديو
- مقطع صوتي أو مقطع فيديو
- أن تتفق مع أهداف موضوع العرض
- جودة الفيديو
- جودة الصوت

الوسائط التى يمكن
إضافتها للعرض التقديمي

ا	ب	ج	د	ه	و
ملف صوتي	ملف فيديو	ملف صوري	نصوص	سيارة	طيارة





أسئلة شاملة للوحدةالثالثة (البرمجة في سكراتش)

لمادة المهارات الرقمية

الفصل الدراسي الأول ١٤٤٨ هـ

السؤال الأول / اختارى الإجابة الصحيحة مما يلى:

١	**مجموعة من تعليمات مفصلة خطوة بخطوة لحل مشكلة أو إكمال مهمة هو معنى :**			
	(أ) الكتابة التلقائية	(ب) الخوارزمية	(ج) إدراج صورة	(د) التدقيق الإملائي
٢	**إذا أردنا ان نجعل الكائن في سكراتش يتحرك ٥ خطوات ١٠ مرات نستخدم لبنة :**			
	(أ)	(ب)	(ج)	(د)
٣	**يسمى التكرار المستخدم لعدد محدد من المرات بـ :**			
	(أ) التكرار الثابت	(ب) التكرار المتغير	(ج) القلم	(د) الاستشعار
٤	**لبنة ارفع القلم** ارفع القلم **تمكنَنا من جعل الكائن :**			
	(أ) يرسم بشكل مستمر	(ب) يتوقف عن الرسم	(ج) يطبع الشكل	(د) ينتظر قليلًا
٥	**نستطيع من خلال** اطبع **الصورة :**			
	(أ) تغيير حجم الخط	(ب) تغيير لون الخط	(ج) إنشاء نسخة مشابهة للكائن	(د) تباعد الأسطر
٦	**نستطيع من خلال الرمز الموجود بالصورة** أنزل القلم **:**			
	(أ) تغيير الكائن	(ب) ترك أثر عند الحركة	(ج) مباعدة الأسطر	(د) تغيير الخلفية



السؤال الثاني : في الفقرات من(١) إلى (١٧) ضعي علامة(√) أمام العبارة الصحيحة (x) أمام العبارة الخاطئة:

١. يمكننا إضافة مقطع صوت في برمجة سكراتش. ( )
٢. الخوارزمية هي عملية تحويل تعليمات مفصلة خطوة بخطوة لحل مشكلة أو إكمال مهمة. ( )
٣. في لوحة لبنات الهيئة سنجد اللبنات المسؤولة عن تحكم حركة الكائن. ( )
٤. يبدأ دائمًا أي برنامج في سكراتش بلبنة الأحداث. ( )
٥. لا يمكننا استخدام لبِنات الصوت لأكثر من شخصية. ( )
٦. الأوامر البرمجية لها عدة ألوان في لوحة اللبنات البرمجية ( )
٧. لا يمكننا إزالة أمر من مقطع برمجي ( )
٨. إزالة الخلفية يزيل كامل العمل في سكراتش . ( )
٩. يمكننا استيراد مقطع صوتي من مكتبة الكائنات الرسومية بسكراتش . ( )
١٠. يمكننا إضافة تعليق داخل الأمر البرمجي . ( )
١١. تُمكن لغة سكراتش من إنشاء البرامج من خلال سحب وإفلات وتركيب اللبنات . ( )
١٢. تعطي الخوارزمية نتيجة صحيحة دائمًا حتى وإن كانت تحتوي أخطاء . ( )
١٣. يمكننا تشغيل العلم فقط لتشغيل المقطع البرمجي . ( )
١٤. تعمل الخلفية في سكراتش على تغيير مظهر المسرح. ( )
١٥. تسمى اللبنات في سكراتش بالأوامر. ( )
١٦. تستخدم الخوارزميات فقط لوصفات الطعام . ( )
١٧. يمكننا إضافة أكثر من كائن وجعل كل واحد منها يعمل بطريقة مختلفة . ( )

السؤال الثالث : صلى كل رمز من خيارات سكراتش المختلفة مع وظيفته الصحيحة :

الوظيفة		الرمز
١- إزالة ماتم رسمه باستخدام القلم		
٢- إيقاف عملية الرسم بالقلم		
٣- تغيير سماكة القلم إلى قيمة محددة		
٤- تغيير لون القلم إلى لون محدد		
٥- جعل القلم يرسم عند تحريكه		

حشتي
المدرسية اونلاين

نرجو لكن التوفيق

معلمات المادة :حنين المطيري

