المملكة العربية السعودية
وزارة التعليم
الادارة العامة للتعليم بمنطقة .....
مدرسة .....

وزارة التعليم
Ministry of Education

نموذج اسئلة اختبار الفترة الثانية
المادة: الدراسات الاجتماعية
الصف: الأول المتوسط
الفصل الدراسي الاول
١٤٤٨هـ

اسم الطالب/ـة		الدرجة		٣٠

السؤال الأول:

١٤ درجة

أ ضع/ي علامة (√) امام العبارة الصائبة وعلامة (×) امام العبارة الخاطئة ؟

١	أستثمر النبي صلى الله عليه وسلم موسم الحج في الدعوة	
٢	كل أبناء النبي صلى الله عليه وسلم من السيدة خديجة ماعدا ابراهيم	
٣	هاجر المسلمون الأوائل الى الحبشة .	
٤	حدثت ثلاثة بيعات في العقبة	
٥	اتسمت الحالة السياسية في شبة الجزيرة العربية قبل الاسلام بالصراعات و الحروب	
٦	في شهر رمضان نزل جبريل عليه السلام على النبي محمد صلى الله عليه وسلم في غار حراء	
٧	حجّ النبي محمد صلى الله عليه وسلم مرتين	
٨	أَمَّ عمر بن الخطاب رضي الله عنه المسلمين في الصلاة لما مرض النبي محمد صلى الله عليه وسلم	

ب عدَد و أذكر (إثنين فقط لمايأتي) ؟

١	أعمال النبي محمد صلى الله عليه وسلم قبل البعثة :
.....	.....
٢	من شمائل النبي صلى الله عليه وسلم :
.....	.....
٣	من اسواق العرب قبل الاسلام :
.....	.....

أقلب الورقة

السؤال الثاني: | ١٦ درجة

أ	ضع/ي الأرقام الموجودة أمام المجموعة الأولى أمام ما يناسبها من المجموعة الثانية ؟

الرقم	المجموعة الاولى	الرقم	المجموعة الثانية
١	غزوة الخندق		٢ هـ
٢	حجة الوداع		٣هـ
٣	غزوة أحد		٥هـ
٤	وفاة النبي صلى الله عليه وسلم		٨هـ
٥	غزوة بدر		١٠هـ
٦	فتح مكة		١١هـ
			١٢هـ

ب	مستعين/ـة بالشكل المجاور ضع/ي مصطلحا مناسبا أمام العبارات التالية ؟

حلف الفضول
غار حراء
سلمان الفارسي
الغزوة
نعيم ين مسعود

١		هي التي قادها النبي صلى الله عليه وسلم بنفسه
٢		أشار على النبي بحفر الخندق في غزوة الخندق
٣		عقدته قريش وتعاهدوا فيه على نصرة المظلوم
٤		اتخذه النبي في جبل النور ليتعبد فيه قبل البعثة

ج	اختر الاجابة الصائبة والصحيحة لمايأتي؟

١	بلغ عدد من بايع النبي محمد صلى الله عليه وسلم من اهل يثرب في بيعة العقبة الأولى :						
أ	١٢ رجلاً	ب	١٥ رجلاً	ج	١٧ رجلاً	د	٢٠ رجلاً
٢	آخر وصايا النبي محمد صلى الله عليه وسلم قبل وفاته :						
أ	بر الوالدين	ب	الصيام	ج	الحج	د	الصلاة
٣	كان النبي صلى الله عليه و سلم يجالس الفقراء و يحب المساكين و يأكل معهم وهذا يُمَثّلُ قيمة :						
أ	الصدق	ب	الأمانة	ج	التواضع	د	الرفق
٤	كل أبناء النبي محمد صلى الله عليه وسلم الذكور و الاناث من السيدة خديجة رضي الله عنها عدا :						
أ	القاسم	ب	عبدالله	ج	ابراهيم	د	رقيّة
٥	كفل النبي صلى الله عليه وسلّم بعد وفاة أمه :						
أ	جده عبدالمطلب	ب	عمه أبوطالب	ج	عمه أبو لهب	د	ورقة بن نوفل
٦	هي ملّة أبينا ابراهيم عليه السلام ملّة التوحيد :						
أ	النصرانية	ب	الحنيفية	ج	اليهودية	د	المجوسية

□ انتهت الاسئلة □

معلم/ـة المادة: ..... مدير/ة المدرسة: .....

نموذج الإجابة

نموذج اسئلة اختبار الفترة الثانية
المادة: الدراسات الاجتماعية
الصف: الأول المتوسط
الفصل الدراسي الاول
١٤٤٨هـ

اسم الطالب/ـة		الدرجة		٣٠

السؤال الأول: ١٤ درجة

أ	ضع/ي علامة (√) امام العبارة الصائبة وعلامة (×) امام العبارة الخاطئة ؟	
١	أستثمر النبي صلى الله عليه وسلم موسم الحج في الدعوة	√
٢	كل أبناء النبي صلى الله عليه وسلم من السيدة خديجة ماعدا ابراهيم	√
٣	هاجر المسلمون الأوائل الى الحبشة .	√
٤	حدثت ثلاثة بيعات في العقبة	×
٥	اتسمت الحالة السياسية في شبة الجزيرة العربية قبل الاسلام بالصراعات و الحروب	√
٦	في شهر رمضان نزل جبريل عليه السلام على النبي محمد صلى الله عليه وسلم في غار حراء	√
٧	حجّ النبي محمد صلى الله عليه وسلم مرتين	×
٨	أَمَّ عمر بن الخطاب رضي الله عنه المسلمين في الصلاة لما مرض النبي محمد صلى الله عليه وسلم	×

ب	عدَد و أذكر (إثنين فقط لمايأتي) ؟

١	أعمال النبي محمد صلى الله عليه وسلم قبل البعثة :
.....التجارة.....	.....رعي الغنم.....
٢	من شمائل النبي صلى الله عليه وسلم :
.....الصدق والتواضع.....	.....حسن معاملة الجار.....
٣	من اسواق العرب قبل الاسلام :
..سوق عكاظ وسوق ذي المجاز....	.سوق المجنة وسوق حجر اليمامة

أقلب الورقة

السؤال الثاني: ١٦ درجة

أ ضع/ي الأرقام الموجودة أمام المجموعة الأولى أمام ما يناسبها من المجموعة الثانية ؟

الرقم	المجموعة الاولى	الرقم	المجموعة الثانية
١	غزوة الخندق	3	٢ هـ
٢	حجة الوداع	5	٣هـ
٣	غزوة أحد	2	٥هـ
٤	وفاة النبي صلى الله عليه وسلم	6	٨هـ
٥	غزوة بدر	1	١٠هـ
٦	فتح مكة	4	١١هـ
			١٢هـ

ب مستعين/ـة بالشكل المجاور ضع/ي مصطلحا مناسبا أمام العبارات التالية ؟

١	الغزوة	هي التي قادها النبي صلى الله عليه وسلم بنفسه
٢	سلمان الفارسي	أشار على النبي بحفر الخندق في غزوة الخندق
٣	حلف الفضول	عقدته قريش وتعاهدوا فيه على نصرة المظلوم
٤	غار حراء	اتخذه النبي في جبل النور ليتعبد فيه قبل البعثة

حلف الفضول
غار حراء
سلمان الفارسي
الغزوة
نعيم ين مسعود

ج اختر الاجابة الصائبة والصحيحة لمايأتي؟

١ بلغ عدد من بايع النبي محمد صلى الله عليه وسلم من اهل يثرب في بيعة العقبة الأولى :
أ ١٢ رجلاً | ب ١٥ رجلاً | ج ١٧ رجلاً | د ٢٠ رجلاً

٢ آخر وصايا النبي محمد صلى الله عليه وسلم قبل وفاته :
أ بر الوالدين | ب الصيام | ج الحج | د الصلاة

٣ كان النبي صلى الله عليه و سلم يجالس الفقراء و يحب المساكين و يأكل معهم وهذا يُمَثّلُ قيمة :
أ الصدق | ب الأمانة | ج التواضع | د الرفق

٤ كل أبناء النبي محمد صلى الله عليه وسلم الذكور و الاناث من السيدة خديجة رضي الله عنها عدا :
أ القاسم | ب عبدالله | ج ابراهيم | د رقيّة

٥ كفل النبي صلى الله عليه وسلّم بعد وفاة أمه :
أ جده عبدالمطلب | ب عمه أبوطالب | ج عمه أبو لهب | د ورقة بن نوفل

٦ هي ملّة أبينا ابراهيم عليه السلام ملّة التوحيد :
أ النصرانية | ب الحنيفية | ج اليهودية | د المجوسية

□ انتهت الاسئلة □

معلم/ـة المادة: ..... مدير/ة المدرسة: .....

المملكة العربية السعودية
وزارة التعليم
إدارة التعلي

المادة : اجتماعيات
الصف: الأول متوسط
الفصل الدراسي : الاول

٣٥

اختبار مادة الاجتماعيات الفترة الثانية لعام 1448هـ

اسم الطالبة: الصف :

السؤال الأول : أ- إختاري الإجابة الصحيحة في كلا مما يأتي								11 درجات	
1	يساعد..... على تنظيم الوقت، واختيار الاسلوب المناسب للدراسة								
أ	التخطيط	ب	الانجاز	ج	الاعمال	د	جميع ما ذكر		
2	تقــع شــبه الجزيــرة العربية في .....العالم								
أ	وسط	ب	جنوب	ج	شرق	د	شمال		
3	..... وهي ملّة أبينا إبراهيم ملة التوحيد،								
أ	الحنيفية	ب	اليهودية	ج	الاصنام	د	لاشي مما ذكر		
4	من الممارسات الدينية								
أ	الاصنام	ب	الاجرام السماوية	ج	المجوسية	د	جميع ما ذكر		
5	عبادة النار (المجوسية) : نشأت في بلاد								
أ	الشام	ب	فارس	ج	العراق	د	الاردن		
6	بعض الأخلاق الحسنة عند العرب قبل الإسلام								
أ	الوفاء بالعهد	ب	حماية الجار	ج	الشجاعة	د	جميع ما ذكر		
7	ولد النبي محمد ﷺ في ..... في شهر ربيع الأول من عام الفيل 571 للميلاد								
أ	مكه المكرمة	ب	المدينة المنورة	ج	الطائف	د	لاشي مما ذكر		
8	نزول الوحي على النبي محمد ﷺ في شهر .....من عام 10٦للميلاد في غار حراء								
أ	رجب	ب	رمضان	ج	شوال	د	شعبان		
9	من وصايا الإسلام في الإحسان إلى الجار								
أ	محبه الخير له	ب	تجنب إيذائه	ج	بذل المعروف له	د	جميع ما ذكر		
10	من شعراء المعلقات السبع								
أ	طَرَفة بن العبد	ب	عْنَتَرة بن شَداد	ج	عمرو بن كُلْثوم	د	جميع ما ذكر		
11	كانت عزوة الخندق في عام								
أ	(٣هـ)	ب	(٨هـ)	ج	(5هـ)	د	(٢هـ)		

ب- ضعي علامة (√) امام العبارة الصحيحة وعلامة ح (×) أمام العبارة الخاطئة		15درجات
1	شرف الله شبه الجزيرة العربية وجعلها أرض التوحيد والحنيفية ففيها هبط ادم وحواء	
٢	ابرز خطوات تنظيم الوقت حصر الاعمال اليومية والاستفادة الكاملة من الوقت	
٣	يعتمد نجاح التخطيط للدراسة على معرفة قيمة الوقت، وعدم إدراك أهميته	
4	التخطيط هو الاعداد المنظم، لتحديد المهام والاعمال المستقبلية	
5	كانت شبه الجزيرة العربية قبل الاسلام نشطة ً اقتصادياً وحضاريا	
٦	مرضعته النبي محمد ﷺ هي (حليمة السْعِدية)	
7	من أساليب قريش في مواجهة الدعوة تشويه الدعوة والاعتداء على النبي ﷺ	
٨	أولاد النبي محمد ﷺ الأبناء - القاسم و عبدالله و إبراهيم	
9	من عمال النبي محمد صلى الله عليه وسلم في المدينة المنورة بناء المسجد النبوي	
10	أول هجرة النبي محمد صلى الله عليه وسلم الى المدينة المنورة	
11	الغزوة هي التي قادها النبي صلى الله عليه وسلم بنفسه	
١٢	غزوة بدر كانت بسبب استلاء قريش في مكة على أموال المسلمين الذين هاجروا للمدينة	
١٣	من نتائج فتح مكة المكرمة اقبال الناس على دين الله أفواجا	
14	توفي النبي محمد صلى الله عليه وسلم في السنة العاشرة للهجرة.	
15	امضى النبي محمد صلى الله عليه وسلم في تبليغ الدين الاسلامي خمس عشرة سنة.	

ب – أذكري ما يلي	4 درجات

❖ اثنين من أسواق العرب في شبه الجزيرة العربية

-1 -2

❖ اثنين من شمائل النبي محمد صل الله عليه وسلم

-1 -2

المادة : اجتماعيات
الصف: الأول متوسط
الفصل الدراسي : الاول

نموذج الإجابة

٣٠

اختبار مادة الاجتماعيات الفترة الثانية لعام ١٤٤٨ هـ

اسم الطالبة: الصف :

السؤال الأول : أ- إختاري الإجابة الصحيحة في كلا مما يأتي							١١ درجات	
١	يساعد..... على تنظيم الوقت، واختيار الاسلوب المناسب للدراسة							
أ	التخطيط	ب	الانجاز	ج	الاعمال	د	جميع ما ذكر	
٢	تقــع شــبه الجزيــرة العربية في .....العالم							
أ	وسط	ب	جنوب	ج	شرق	د	شمال	
٣	..... وهي ملّة أبينا إبراهيم ملة التوحيد،							
أ	الحنيفية	ب	اليهودية	ج	الاصنام	د	لاشي مما ذكر	
٤	من الممارسات الدينية							
أ	الاصنام	ب	الاجرام السماوية	ج	المجوسية	د	جميع ما ذكر	
٥	عبادة النار (المجوسية) : نشأت في بلاد							
أ	الشام	ب	فارس	ج	العراق	د	الاردن	
٦	بعض الأخلاق الحسنة عند العرب قبل الإسلام							
أ	الوفاء بالعهد	ب	حماية الجار	ج	الشجاعة	د	جميع ما ذكر	
٧	ولد النبي محمد ﷺ في ..... في شهر ربيع الأول من عام الفيل ٥٧١ للميلاد							
أ	مكه المكرمة	ب	المدينة المنورة	ج	الطائف	د	لاشي مما ذكر	
٨	نزول الوحي على النبي محمد ﷺ في شهر .....من عام ٦١٠للميلاد في غار حراء							
أ	رجب	ب	رمضان	ج	شوال	د	شعبان	
٩	من وصايا الإسلام في الإحسان إلى الجار							
أ	محبه الخير له	ب	تجنب إيذائه	ج	بذل المعروف له	د	جميع ما ذكر	
١٠	من شعراء المعلقات السبع							
أ	طَرَفة بن العبد	ب	عْنَتَرة بن َشداد	ج	عمرو بن ُكْلُثوم	د	جميع ما ذكر	
١١	كانت عزوة الخندق في عام							
أ	(٣هـ)	ب	(٨هـ)	ج	(٥هـ)	د	(٢هـ)	

ب- ضعي علامة (√) امام العبارة الصحيحة وعلامة ح (×) أمام العبارة الخاطئة		١٥درجات	
١	شرف الله شبه الجزيرة العربية وجعلها أرض التوحيد والحنيفية ففيها هبط ادم وحواء		√
٢	ابرز خطوات تنظيم الوقت حصر الاعمال اليومية والاستفادة الكاملة من الوقت		√
٣	يعتمد نجاح التخطيط للدراسة على معرفة قيمة الوقت، وعدم إدراك أهميته		×
٤	التخطيط هو الاعداد المنظم، لتحديد المهام والاعمال المستقبلية		√
٥	كانت شبه الجزيرة العربية قبل الاسلام نشطةً اقتصادياً وحضاريا		√
٦	مرضعته النبي محمد ﷺ هي (حليمة السْعِدية)		√
٧	من أساليب قريش في مواجهة الدعوة تشويه الدعوة والاعتداء على النبي ﷺ		√
٨	أولاد النبي محمد ﷺ الأبناء - القاسم و عبدالله و إبراهيم		√
٩	من عمال النبي محمد صلى الله عليه وسلم في المدينة المنورة بناء المسجد النبوي		√
١٠	أول هجرة النبي محمد صلى الله عليه وسلم الى المدينة المنورة		×
١١	الغزوة هي التي قادها النبي صلى الله عليه وسلم بنفسه		√
١٢	غزوة بدر كانت بسبب استلاء قريش في مكة على أموال المسلمين الذين هاجروا للمدينة		√
١٣	من نتائج فتح مكة المكرمة اقبال الناس على دين الله أفواجا		√
١٤	توفي النبي محمد صلى الله عليه وسلم في السنة العاشرة للهجرة.		×
١٥	امضى النبي محمد صلى الله عليه وسلم في تبليغ الدين الاسلامي خمس عشرة سنة.		×

ب – أذكري ما يلي	٤ درجات	
❖ اثنين من أسواق العرب في شبه الجزيرة العربية ١ – دومة الجندل الجوف ٢ عكاظ الطائف		٢
❖ اثنين من شمائل النبي محمد صل الله عليه وسلم ١ – الصدق ٢-التواضع		٢

مع أطيب التمنيات لك بالتوفيق والنجاح الباهر ....

المملكة العربية السعودية
وزارة التعليم
الادارة العام للتعليم بمنطقة مكة المكرمة
مدرسة .....

وزارة التعليم
Ministry of Education

المادة : الدراسات الاجتماعية
الصف : الأول المتوسط
اليوم :. . التاريخ : / /١٤٤٨هـ
اختبار الفترة الثانية الاختبارالأول لعام ١٤٤٨هـ

٣٠ درجة

اسم الطالب رباعياً / ..... الفصل:.....

السؤال الأول: اختر الإجابة الصحيحة فيما يلي بوضع دائرة حول الخيار المناسب: (١٠ درجات)

١	كل مما يلي من العناصر الصحيحة في التخطيط ما عدا:								
	أ-	تصميم جدول للأعمال	ب-	تحديد وقت للراحة المنتظمة	ج-	تحديد الأعمال دون زمن	د-	الجدية في التزام التخطيط
٢	الإعداد المنظَّم، لتحديد المهام والأعمال المستقبلية، ومواعيد القيام بها، وكيفية إنجازها.								
	أ-	تنظيم الوقت	ب-	التخطيط	ج-	ترتيب الأولويات	د-	الإنجاز
٣	كل مما يلي من أهداف التخطيط ما عدا:								
	أ-	الاستمتاع بالوقت	ب-	المحافظة على الصحة	ج-	النجاح والتفوق	د-	كثرة المهام
٤	مرضعة النبي محمد صلى الله عليه وسلم هي								
	أ-	حليمة السعدية	ب-	خديجة بن خويلد	ج-	آمنة بنت وهب	د-	أم أيمن
٥	ولد نبينا محمد صلى الله وعليه وسلم في ..... في شهر بيع الاول من عام ٥٧١م :								
	أ-	المدينة المنورة	ب-	الطائف	ج-	مكة المكرمة	د-	نجد
٦	ملة النبي إبراهيم عليه السلام :								
	أ-	الحنيفية	ب-	اليهودية	ج-	النصرانية		الوثنية
٧	عبادة النار المجوسية نشأت في دولة :								
	أ	اليمن	ب	إيران	ج	الشام	د	المغرب
٨	من أسواق الطائف قديماً سوق (َ ـــــ:								
	أ	هجر	ب	ذوَ مجاز	ج	عُكاظ	د	دومة الجندول
٩	توفي والد النبي محمد صلى الله عليه وسلم في:								
	أ	مكة المكرمة	ب	يثرب	ج	الطائف	د	الشام
١٠	خرج النبي صلى الله عليه وسلم مع عمه أبو طالب في رحلة تجارية لبلاد :								
	أ	اليمن	ب	الشام	ج	العراق	د	الحبشة

اقلب الصفحة

السؤال الثاني: أكمل خريطة المفاهيم التالية : (٥ درجات)

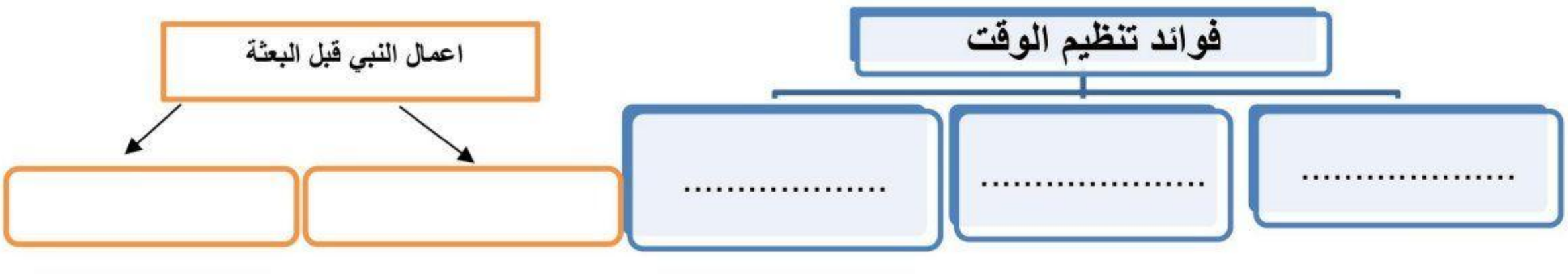

السؤال الثالث: ضع علامة (√) أمام العبارة الصحيحة و علامة (×) أمام العبارة الخاطئة فيما يلي : (١٠ درجات)

١	يعد تصميم عدد من الجداول للأعمال نفسها أكثر فاعلية من الجدول الواحد.	
٢	تعتني رؤية ٢٠٣٠ بتحقيق شخصية وطنية تحرص على التخطيط.	
٣	من أسس التخطيط تنظيم الوقت.	
٤	كانت السمة العامة للحالة السياسية في شبة الجزيرة العربية قبل الاسلام الاضطراب والنزاعات والحروب وتعدد الزعامات السياسية	
٥	يساعدنا التخطيط على تحقيق العديد من الأهداف وإنجاز المهام	
٦	جميع اولاد النبي صلى الله عليه وسلم من زوجته خديجة ماعدا إبراهيم من مارية القبطية	
٧	انتشرت النصرانية في شمال شبه الجزيرة العربية وجنوبها	
٨	عدد بنات النبي صلى الله عليه وسلم أربع	
٩	من الضروري عند التخطيط تخصيص وقت لما يطرأ من أعمال	
١٠	أول زوجات النبي صلى الله عليه وسلم السيدة عائشة	

السؤال الرابع : أ - أكمل العبارات الآتية

١- السكان المستقرون في المدن والقرى يسمون.....)

٢ - حلف عقدته قريش وتعاهدوا فيه على نصرة المظلوم.....

٣- بعد وفاة جد النبي صلى الله عليه وسلم كفله .....

ب – ما سبب رضاعة النبي في بادية بني سعد ؟

المملكة العربية السعودية
وزارة التعليم
الادارة العام للتعليم بمنطقة مكة المكرمة
مدرسة .....

المادة : الدراسات الاجتماعية
الصف : الأول المتوسط
اليوم :. التاريخ : / /١٤٤٨هـ
اختبار الفترة الثانية الاختبارالأول لعام ١٤٤٨هـ

نموذج الإجابة

اسم الطالب

٣٠ درجة

السؤال الأول: اختر الإجابة الصحيحة فيما يلي بوضع دائرة حول الخيار المناسب: (١٠ درجات)

١	كل مما يلي من العناصر الصحيحة في التخطيط ما عدا:							
	أ-	تصميم جدول للأعمال	ب-	تحديد وقت للراحة المنتظمة	ج-	تحديد الأعمال دون زمن	د-	الجدية في التزام التخطيط
٢	الإعداد المنظَّم، لتحديد المهام والأعمال المستقبلية، ومواعيد القيام بها، وكيفية إنجازها.							
	أ-	تنظيم الوقت	ب-	التخطيط	ج-	ترتيب الأولويات	د-	الإنجاز
٣	كل مما يلي من أهداف التخطيط ما عدا:							
	أ-	الاستمتاع بالوقت	ب-	المحافظة على الصحة	ج-	النجاح والتفوق	د-	كثرة المهام
٤	مرضعة النبي محمد صلى الله عليه وسلم هي							
	أ-	حليمة السعدية	ب-	خديجة بن خويلد	ج-	آمنة بنت وهب	د-	أم أيمن
٥	ولد نبينا محمد صلى الله وعليه وسلم في ..... في شهر بيع الاول من عام ٥٧١م :							
	أ-	المدينة المنورة	ب-	الطائف	ج-	مكة المكرمة	د-	نجد
٦	ملة النبي إبراهيم عليه السلام :							
	أ-	الحنيفية	ب-	اليهودية	ج-	النصرانية		الوثنية
٧	عبادة النار المجوسية نشأت في دولة :							
	أ	اليمن	ب	إيران	ج	الشام	د	المغرب
٨	من أسواق الطائف قديماً سوق (َ ـــــ:							
	أ	هجر	ب	ذوَ مجاز	ج	عُكاظ	د	دومة الجندول
٩	توفي والد النبي محمد صلى الله عليه وسلم في:							
	أ	مكة المكرمة	ب	يثرب	ج	الطائف	د	الشام
١٠	خرج النبي صلى الله عليه وسلم مع عمه أبو طالب في رحلة تجارية لبلاد :							
	أ	اليمن	ب	الشام	ج	العراق	د	الحبشة

اقلب الصفحة

السؤال الثاني: أكمل خريطة المفاهيم التالية : (٥ درجات)



السؤال الثالث: ضع علامة (✓) أمام العبارة الصحيحة و علامة (×) أمام العبارة الخاطئة فيما يلي : (١٠ درجات)

١	يعد تصميم عدد من الجداول للأعمال نفسها أكثر فاعلية من الجدول الواحد.	✗
٢	تعتني رؤية ٢٠٣٠ بتحقيق شخصية وطنية تحرص على التخطيط.	✓
٣	من أسس التخطيط تنظيم الوقت.	✓
٤	كانت السمة العامة للحالة السياسية في شبة الجزيرة العربية قبل الاسلام الاضطراب والنزاعات والحروب وتعدد الزعامات السياسية	✓
٥	يساعدنا التخطيط على تحقيق العديد من الأهداف وإنجاز المهام	✓
٦	جميع اولاد النبي صلى الله عليه وسلم من زوجته خديجة ماعدا إبراهيم من مارية القبطية	✓
٧	انتشرت النصرانية في شمال شبه الجزيرة العربية وجنوبها	✓
٨	عدد بنات النبي صلى الله عليه وسلم أربع	✓
٩	من الضروري عند التخطيط تخصيص وقت لما يطرأ من أعمال	✓
١٠	أول زوجات النبي صلى الله عليه وسلم السيدة عائشة	✗

السؤال الرابع : أ - أكمل العبارات الآتية

١- السكان المستقرون في المدن والقرى يسمون.....الحضر.....)

٢ - حلف عقدته قريش وتعاهدوا فيه على نصرة المظلوم.حلف..الفضول

٣- بعد وفاة جد النبي صلى الله عليه وسلم كفله عمه..أبو طالب

ب – ما سبب رضاعة النبي في بادية بني سعد ؟

حفاظا على سلامة لغتهم وفصاحة السنتهم وصحة أجسامهم.

المملكة العربية السعودية
وزارة التعليم
إدارة تعليم .....
مدرسة .....

وزارة التعليم
Ministry of Education

اختبار الوحدة الرابعة
المادة: الدراسات الاجتماعية
الصف : الاول المتوسط
الفصل الدراسي الأول ١٤٤٨هـ

اسم الطالب/ـة		الفصل		٢٠درجة	

السؤال الاول : ضع علامة (√) امام العبارة الصحيحة وعلامة (×) امام العبارة الخاطئة فيما يلي؟ (٤ درجات)		
١	كانت السمة العامة للحالة السياسية في شبة الجزيرة العربية قبل الاسلام الاضطراب والنزاعات والحروب وتعدد الزعامات السياسية	
٢	جميع اولاد النبي صلى الله عليه وسلم من زوجته خديجة ماعدا إبراهيم من مارية القبطية	
٣	هاجر المسلمون الاوائل الى مصر	
٤	الغزوة هي المعركة التي قادها النبي صلى الله عليه وسلم بنفسه	

السؤال الثاني : أختار الاجابة الصحيحة فيما يلي ؟ (٤ درجات)			
١	مرضعة النبي محمد صلى الله عليه وسلم هي :		
	حليمة السعدية	خديجة بن خويلد	آمنة بنت وهب
٢	ولد نبينا محمد صلى الله وعليه وسلم في ..... في شهر بيع الاول من عام ٥٧١م :		
	المدينة المنورة	الطائف	مكة المكرمة
٣	اشار على النبي بحفر الخندق في غزوة الاحزاب(الخندق) :		
	مصعب ابن عمير	سلمان الفارسي	نعيم بن مسعود
٤	حدثت ..... بيعات في العقبة :		
	اثنتين	ثلاث	اربعة

السؤال الثالث : قارن بين غزوتي بدر واحد وفق الجدول ادناه ؟ (٤ درجات)		
غزوة بدر	وجه المقارنة	غزوة احد
	تاريخها	
	نتيجتها	

السؤال الرابع : اكمل خرائط المفاهيم التالية ؟ (٤درجات)

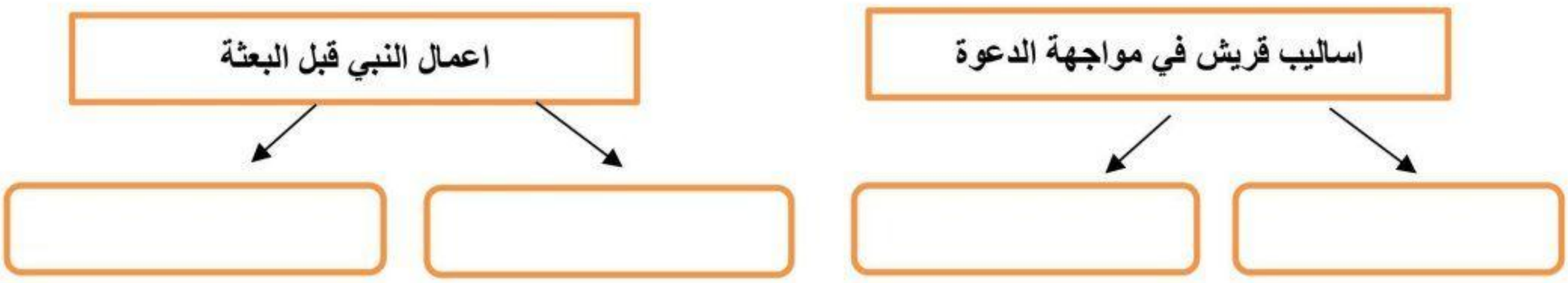

السؤال الخامس :

عزيزي الطالب من خلال دراستك سيرة الحبيب نبينا محمد صلى الله عليه وسلم رتب الاحداث التاريخية التالية من سيرته من الاقدم الى الاحدث؟

(٤ درجات)

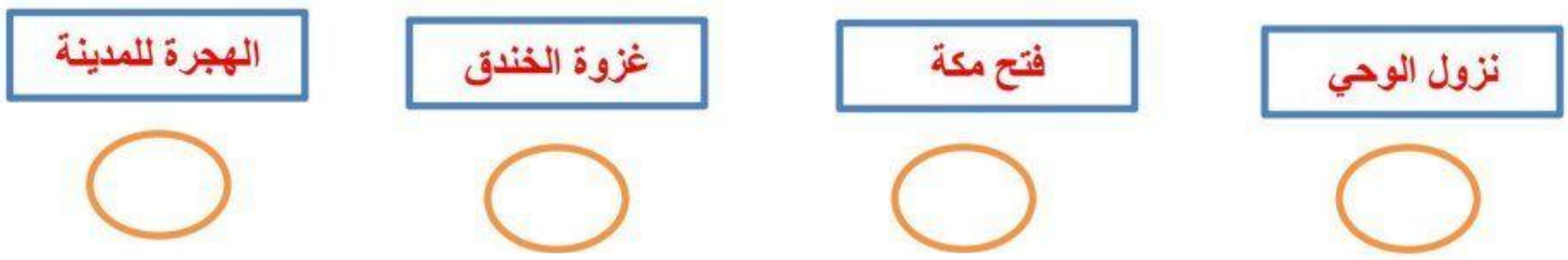

تمت الأسئلة

معلم المادة :

مديرة المدرسة :

نموذج الإجابة

اختبار الوحدة الرابعة
المادة: الدراسات الاجتماعية
الصف : الاول المتوسط
الفصل الدراسي الأول ١٤٤٨هـ

اسم الطالب/ـة		الفصل		٢٠درجة	

السؤال الاول : ضع علامة (√) امام العبارة الصحيحة وعلامة (×) امام العبارة الخاطئة فيما يلي؟ (٤ درجات)		
١	كانت السمة العامة للحالة السياسية في شبة الجزيرة العربية قبل الاسلام الاضطراب والنزاعات والحروب وتعدد الزعامات السياسية	✓
٢	جميع اولاد النبي صلى الله عليه وسلم من زوجته خديجة ماعدا إبراهيم من مارية القبطية	✓
٣	هاجر المسلمون الاوائل الى مصر	✗
٤	الغزوة هي المعركة التي قادها النبي صلى الله عليه وسلم بنفسه	✓

السؤال الثاني : أختار الاجابة الصحيحة فيما يلي ؟ (٤ درجات)			
١	مرضعة النبي محمد صلى الله عليه وسلم هي :		
	حليمة السعدية	خديجة بن خويلد	آمنة بنت وهب
٢	ولد نبينا محمد صلى الله وعليه وسلم في ..... في شهر بيع الاول من عام ٥٧١م :		
	المدينة المنورة	الطائف	مكة المكرمة
٣	اشار على النبي بحفر الخندق في غزوة الاحزاب(الخندق) :		
	مصعب ابن عمير	سلمان الفارسي	نعيم بن مسعود
٤	حدثت ..... بيعات في العقبة :		
	اثنتين	ثلاث	اربعة

السؤال الثالث : قارن بين غزوتي بدر واحد وفق الجدول ادناه ؟ (٤ درجات)

غزوة بدر	وجه المقارنة	غزوة احد
2 هـ	تاريخها	3 هـ
انتصار المسلمين	نتيجتها	انتصر المسلمين في البداية ثم انهزامهم بعد مخالفهم أمر أمر رسول الله

السؤال الرابع : اكمل خرائط المفاهيم التالية ؟ (٤درجات)



السؤال الخامس :

عزيزي الطالب من خلال دراستك سيرة الحبيب نبينا محمد صلى الله عليه وسلم رتب الاحداث التاريخية التالية من سيرته من الاقدم الى الاحدث؟

(٤ درجات)

نزول الوحي	فتح مكة	غزوة الخندق	الهجرة للمدينة
1	4	3	2

تمت الأسئلة

معلم المادة :

مديرة المدرسة :

المملكة العربية السعودية
وزارة التعليم
الادارة العام للتعليم بمنطقة مكة المكرمة
مدرسة .....

وزارة التعليم
Ministry of Education

المادة : الدراسات الاجتماعية
الصف : الأول المتوسط
اليوم :. . التاريخ : / /١٤٤٨هـ
اختبار الفترة الثانية الاختبار الأول لعام ١٤٤٨هـ

٣٠ درجة

اسم الطالب رباعياً / ..... الفصل:.....

السؤال الأول: اختر الإجابة الصحيحة فيما يلي بوضع دائرة حول الخيار المناسب: (١٠ درجات)

١	يعتمد نجاح التخطيط للدراسة على:							
	أ-	تصميم جدول للأعمال	ب-	تحديد وقت للراحة	ج-	معرفة قيمة الوقت	د-	ترتيب الأولويات
٢	الإعداد المنظَّم، لتحديد المهام والأعمال المستقبلية، ومواعيد القيام بها، وكيفية إنجازها.							
	أ-	تنظيم الوقت	ب-	التخطيط	ج-	ترتيب الأولويات	د-	الإنجاز
٣	من خطوات تنظيم الوقت:							
	أ-	أداء الأعمال في الوقت	ب-	الاستفادة الكاملة من الوقت	ج-	تحقيق التوازن بين الأعمال	د-	حصر الأعمال اليومية
٤	تقع شبه الجزيرة العربية في قارة:							
	أ-	أوروبا	ب-	آسيا	ج-	إفريقيا	د-	أستراليا
٥	من الأخلاق الحسنة عند العرب كل ما يلي ما عدا:							
	أ-	الأخذ بالثأر	ب-	الوفاء بالعهد	ج-	حماية الجار	د-	الكرم
٦	كانت رحلة الشتاء إلى :							
	أ-	الشام	ب-	مصر	ج-	العراق		اليمن
٧	من أهم موروثات الشعر عند العرب:							
	أ	المعلقات السبع	ب	الحوليات	ج	المعلقات الخمس	د	القصائد
٨	كان سوق ذو المجاز في:							
	أ	الطائف	ب	مكة	ج	الرياض	د	المدينة المنورة
٩	بقي النبي صلى الله عليه وسلم في بني سعد عند مرضعته حليمة السعدية:							
	أ	ثلاث سنوات	ب	أربع سنوات	ج	خمس سنوات	د	ست سنوات
١٠	أول زوجات النبي صلى الله عليه وسلم السيدة:							
	أ	عائشة	ب	خديجة	ج	مارية	د	حفصة

اقلب الصفحة

السؤال الثاني : ضع علامة (√) أمام العبارة الصحيحة و علامة (×) أمام العبارة الخاطئة فيما يلي : (١٠ درجات)

١	يساعد التخطيط على تنظيم الوقت واختيار الأسلوب المناسب للدراسة.	
٢	يعد تصميم عدد من الجداول للأعمال نفسها أكثر فاعلية من الجدول الواحد.	
٣	التخطيط الالكتروني أفضل من استخدام الورقة والقلم.	
٤	من نتائج التخطيط التوتر والقلق.	
٥	يساعدنا التخطيط على تحقيق العديد من الأهداف وإنجاز المهام	
٦	البادية هم الذين يسكنون الصحراء وينتقلون من مكان لآخر بحثاً عن الماء والعشب	
٧	ولد النبي ﷺ في شهر ربيع الثاني من عام الفيل	
٨	كانت السمة العامة في شبه الجزيرة العربية قبل الإسلام الاضطراب وتعدد الزعامات السياسية	
٩	من الضروري عند التخطيط تخصيص وقت لما يطرأ من أعمال	
١٠	شهد النبي صلى الله عليه وسلم حلف الفضول.	

السؤال الثالث : أ – رتب خطوات تنظيم الوقت للمهام الدراسية

( ) - تحديد الوقت اللازم لإنجاز كل عمل.

( ) - ترتيب الأعمال وفق الأولوية.

( ) - تحديد وقت للاستراحة.

( ) - إعداد قائمة الأعمال اليومية بعد حصرها.

( ) - كتابة جميع الأعمال في قائمة واحدة.

ب - أكتب المفهوم الدال العبارة الآتية :

١-حلف عقدته قريش وتعاهدوا فيه على نصرة المظلوم.....)

٢- فرح بميلاد النبي صلى الله عليه وسلم واسماه محمداً(.....)

٢-تشرفت بإرضاع النبي صلى الله عليه وسلم وبقي عندها أربع سنوات (.....)

٤- كان الصنم الأعظم لقريش على ظهر الكعبة.(.....)

٥- ملة أبينا إبراهيم وهي ملة التوحيد.(.....)

مع تمنياتي للجميع بالتوفيق / معلم المادة :

المملكة العربية السعودية
وزارة التعليم
الادارة العام للتعليم بمنطقة مكة المكرمة
مدرسة .....

وزارة التعليم
Ministry of Education

المادة : الدراسات الاجتماعية
الصف : الأول المتوسط
اليوم :. التاريخ : / /١٤٤٨هـ
اختبار الفترة الثانية الاختبار الأول لعام ١٤٤٨هـ

اسم الطا

نموذج الإجابة

٣٠ درجة

السؤال الأول: اختر الإجابة الصحيحة فيما يلي بوضع دائرة حول الخيار المناسب: (١٠ درجات)

١	يعتمد نجاح التخطيط للدراسة على:							
	أ-	تصميم جدول للأعمال	ب-	تحديد وقت للراحة	ج-	معرفة قيمة الوقت	د-	ترتيب الأولويات
٢	الإعداد المنظَّم، لتحديد المهام والأعمال المستقبلية، ومواعيد القيام بها، وكيفية إنجازها.							
	أ-	تنظيم الوقت	ب-	التخطيط	ج-	ترتيب الأولويات	د-	الإنجاز
٣	من خطوات تنظيم الوقت:							
	أ-	أداء الأعمال في الوقت	ب-	الاستفادة الكاملة من الوقت	ج-	تحقيق التوازن بين الأعمال	د-	حصر الأعمال اليومية
٤	تقع شبه الجزيرة العربية في قارة:							
	أ-	أوروبا	ب-	آسيا	ج-	إفريقيا	د-	أستراليا
٥	من الأخلاق الحسنة عند العرب كل ما يلى ما عدا:							
	أ-	الأخذ بالثأر	ب-	الوفاء بالعهد	ج-	حماية الجار	د-	الكرم
٦	كانت رحلة الشتاء إلى :							
	أ-	الشام	ب-	مصر	ج-	العراق		اليمن
٧	من أهم موروثات الشعر عند العرب:							
	أ	المعلقات السبع	ب	الحوليات	ج	المعلقات الخمس	د	القصائد
٨	كان سوق ذو المجاز في:							
	أ	الطائف	ب	مكة	ج	الرياض	د	المدينة المنورة
٩	بقي النبي صلى الله عليه وسلم في بني سعد عند مرضعته حليمة السعدية:							
	أ	ثلاث سنوات	ب	أربع سنوات	ج	خمس سنوات	د	ست سنوات
١٠	أول زوجات النبي صلى الله عليه وسلم السيدة:							
	أ	عائشة	ب	خديجة	ج	مارية	د	حفصة

اقلب الصفحة

السؤال الثاني : ضع علامة (√) أمام العبارة الصحيحة و علامة (×) أمام العبارة الخاطئة فيما يلي : (١٠ درجات)

١	يساعد التخطيط على تنظيم الوقت واختيار الأسلوب المناسب للدراسة.	✓
٢	يعد تصميم عدد من الجداول للأعمال نفسها أكثر فاعلية من الجدول الواحد.	✗
٣	التخطيط الالكتروني أفضل من استخدام الورقة والقلم.	✗
٤	من نتائج التخطيط التوتر والقلق.	✗
٥	يساعدنا التخطيط على تحقيق العديد من الأهداف وإنجاز المهام	✓
٦	البادية هم الذين يسكنون الصحراء وينتقلون من مكان لآخر بحثاً عن الماء والعشب	✓
٧	ولد النبي ﷺ في شهر ربيع الثاني من عام الفيل	✗
٨	كانت السمة العامة في شبه الجزيرة العربية قبل الإسلام الاضطراب وتعدد الزعامات السياسية	✓
٩	من الضروري عند التخطيط تخصيص وقت لما يطرأ من أعمال	✓
١٠	شهد النبي صلى الله عليه وسلم حلف الفضول.	✓

السؤال الثالث : أ – رتب خطوات تنظيم الوقت للمهام الدراسية

(٤) - تحديد الوقت اللازم لإنجاز كل عمل.

(٣) – ترتيب الأعمال وفق الأولوية.

(٥) - تحديد وقت للاستراحة.

(١) . إعداد قائمة الأعمال اليومية بعد حصرها.

(٢) - كتابة جميع الأعمال في قائمة واحدة.

ب - أكتب المفهوم الدال العبارة الآتية :

١-حلف عقدته قريش وتعاهدوا فيه على نصرة المظلوم.(حلف الفضول)

٢- فرح بميلاد النبي صلى الله عليه وسلم واسماه محمداً.(حليمة السعدية)

٢-تشرفت بإرضاع النبي صلى الله عليه وسلم وبقي عندها أربع سنوات (جده..عبد) المطلب

٤- كان الصنم الأعظم لقريش على ظهر الكعبة.(هبل)

٥- ملة أبينا إبراهيم وهي ملة التوحيد.(.....الحنيفية.....)

مع تمنياتي للجميع بالتوفيق / معلم المادة :

المملكة العربية السعودية	إدارة تعليم		المادة : الدراسات الاجتماعية
وزارة التعليم	مدرسة		الصف: الأول متوسط
اسم الطالب:			اختبار الفترة الثانية

السؤال الأول: اختار الإجابة الصحيحة فيما يلي بوضع دائرة عليها:

١	عمل النبي صلى الله عليه وسلم في أول شبابه عدد من الأعمال من أبرزها :							
أ	الزراعة	ب	الصناعة	ج	رعي الغنم	د	الحدادة	
٢	أسهم النبي صلى الله عليه وسلم في حل بعض مشكلات مجتمعه ومن ذلك :							
أ	حفر بئر زمزم	ب	بناء المسجد الأقصى	ج	تجديد بناء الكعبة	د	ترميم الأصنام	
٣	كانت الحالة السياسية في شبه الجزيرة العربية قبل الإسلام قائمة على :							
أ	الوحدة	ب	الاضطراب	ج	التعاون	د	التضامن	
٤	جهر النبي صلى الله عليه وسلم بالدعوة في المرحلة الجهرية :							
أ	استعدادا للحرب	ب	استجابة لأمر الله	ج	إقرار من بني هاشم	د	لزيادة أعداد اليهود	
٥	أسواق العرب قبل الإسلام :							
أ	عكاظ وذو المجاز	ب	الوطن وذو المجنة	ج	المدينة والحجاز	د	الفيصلية والعرب	
٦	غزوة بدر أول غزوة في الإسلام وكانت فاصلة بين الحق والباطل ومن أهم أسباب قيام الغزوة :							
أ	اعادة الأموال للمهاجرين	ب	لأمانة قريش مع المهاجرين	ج	انتقاما من قريش	د	محاربة الرسول صلى الله عليه وسلم لليهود	
٧	الأسباب الرئيسية في هزيمة المسلمين في غزوة أحد :							
أ	قلة عدد المسلمين	ب	اشتداد الحصار على المسلمين	ج	مخالفة الرماة لأوامر الرسول صلى الله عليه وسلم	د	خوف المسلمين من قريش	
٨	أول عمل قام به نبينا صلى الله عليه وسلم في مكة بعد الفتح							
أ	تحطيم الأصنام	ج	المؤاخاة بين المهاجرين والأنصار	د	عقد هدنة مع اليهود	د	التوجه لمحاربة قبائل الجزيرة العربية	
٩	كان حصار الشّعب في السنة							
أ	٥ من البعثة	ب	٦ من البعثة	ج	٧ من البعثة	د	٨ من البعثة	
١٠	عدد الذين بايعوا النبي صلى الله عليه وسلم							
أ	١٢ رجلاً	ب	١٣ رجلاً	ج	١٤ رجلاً	د	١٥ رجلاً	

السؤال الثاني : ضع إشارة (✓) أمام الإجابة الصحيحة وإشارة (×) أمام الإجابة الخاطئة:

١	تقع شبه الجزيرة العربية في قلب العالم وتربط بين ثلاث قارات " أفريقيا وأوروبا وآسيا "	
٢	الذي نجح في التفريق بين قريش وحلفائها في غزوة الخندق هو نعيم بن مسعود رضي الله	
٣	الذي كفل الرسول صلى الله عليه وسلم بعد وفاة والدته هو عمه أبوطالب	
٤	بدأت بوادر الوحي على النبي صلى الله عليه وسلم بـالرؤيا الصادقة	
٥	كان الرسول صلى الله عليه وسلم يتعبد في غار حراء	
٦	الصحابي الجليل الذي هاجر مع الرسول صلى الله عليه وسلم هو أبو بكر الصديق رضي الله عنه	
٧	تزوج الرسول صلى الله عليه وسلم من خديجة رضي الله عنها وعُمرُه ٣٥سنة	
٨	فتح مكة كان في السنة ١٠من الهجرة	
٩	صحب النبي عليه السلام عمه أبو طالب في رحلة تجارية إلى بلاد الشام	
١٠	الغزوة هي المعركة التي قادها النبي صلى الله عليه وسلم بنفسه	

المملكة العربية السعودية	المادة : الدراسات الاجتماعية
وزارة التعليم	الصف: الأول متوسط
اسم الطالب:	اختبار الفترة الثانية

نموذج الإجابة

السؤال الأول: اختار الإجابة الصحيحة فيما يلي بوضع دائرة عليها:

١	عمل النبي صلى الله عليه وسلم في أول شبابه عدد من الأعمال من أبرزها :							
أ	الزراعة	ب	الصناعة	ج	رعي الغنم	د	الحدادة	
٢	أسهم النبي صلى الله عليه وسلم في حل بعض مشكلات مجتمعه ومن ذلك :							
أ	حفر بئر زمزم	ب	بناء المسجد الأقصى	ج	تجديد بناء الكعبة	د	ترميم الأصنام	
٣	كانت الحالة السياسية في شبه الجزيرة العربية قبل الإسلام قائمة على :							
أ	الوحدة	ب	الاضطراب	ج	التعاون	د	التضامن	
٤	جهر النبي صلى الله عليه وسلم بالدعوة في المرحلة الجهرية :							
أ	استعدادا للحرب	ب	استجابة لأمر الله	ج	إقرار من بني هاشم	د	لزيادة أعداد اليهود	
٥	أسواق العرب قبل الإسلام :							
أ	عكاظ وذو المجاز	ب	الوطن وذو المجنة	ج	المدينة والحجاز	د	الفيصلية والعرب	
٦	غزوة بدر أول غزوة في الإسلام وكانت فاصلة بين الحق والباطل ومن أهم أسباب قيام الغزوة :							
أ	اعادة الأموال للمهاجرين	ب	لأمانة قريش مع المهاجرين	ج	انتقاما من قريش	د	محاربة الرسول صلى الله عليه وسلم لليهود	
٧	الأسباب الرئيسية في هزيمة المسلمين في غزوة أحد :							
أ	قلة عدد المسلمين	ب	اشتداد الحصار على المسلمين	ج	مخالفة الرماة لأوامر الرسول صلى الله عليه وسلم	د	خوف المسلمين من قريش	
٨	أول عمل قام به نبينا صلى الله عليه وسلم في مكة بعد الفتح							
أ	تحطيم الأصنام	ج	المؤاخاة بين المهاجرين والأنصار	د	عقد هدنة مع اليهود	د	التوجه لمحاربة قبائل الجزيرة العربية	
٩	كان حصار الشّعب في السنة							
أ	٥ من البعثة	ب	٦ من البعثة	ج	٧ من البعثة	د	٨ من البعثة	
١٠	عدد الذين بايعوا النبي صلى الله عليه وسلم							
أ	١٢ رجلاً	ب	١٣ رجلاً	ج	١٤ رجلاً	د	١٥ رجلاً	

السؤال الثاني : ضع إشارة (✓) أمام الإجابة الصحيحة وإشارة (×) أمام الإجابة الخاطئة:

١	تقع شبه الجزيرة العربية في قلب العالم وتربط بين ثلاث قارات " أفريقيا وأوروبا وآسيا "	✓
٢	الذي نجح في التفريق بين قريش وحلفائها في غزوة الخندق هو نعيم بن مسعود رضي الله	✓
٣	الذي كفل الرسول صلى الله عليه وسلم بعد وفاة والدته هو عمه أبوطالب	×
٤	بدأت بوادر الوحي على النبي صلى الله عليه وسلم بـالرؤيا الصادقة	✓
٥	كان الرسول صلى الله عليه وسلم يتعبد في غار حراء	✓
٦	الصحابي الجليل الذي هاجر مع الرسول صلى الله عليه وسلم هو أبو بكر الصديق رضي الله عنه	✓
٧	تزوج الرسول صلى الله عليه وسلم من خديجة رضي الله عنها وعُمرُه ٣٥سنة	×
٨	فتح مكة كان في السنة ١٠من الهجرة	×
٩	صحب النبي عليه السلام عمه أبو طالب في رحلة تجارية إلى بلاد الشام	✓
١٠	الغزوة هي المعركة التي قادها النبي صلى الله عليه وسلم بنفسه	✓

المملكة العربية السعودية	إدارة تعليم		المادة : الدراسات الاجتماعية
وزارة التعليم	مدرسة		الصف: الأول متوسط
اسم الطالب:			اختبار الفترة الثانية

السؤال الأول: اختار الإجابة الصحيحة فيما يلي بوضع دائرة عليها:

١	نزل الوحي على النبي صلى الله عليه وسلم وعمره							
أ	٣٠سنة	ب	٤٠سنة	ج	٥٠سنة	د	٦٠سنة	
٢	وقعت غزوة بدر في السنة							
أ	٢ من الهجرة	ب	٣ من الهجرة	ج	٤ من الهجرة	د	٥ من الهجرة	
٣	اشار على النبي بحفر الخندق في غزوة الأحزاب (الخندق)							
أ	مصعب ابن عمير	ب	سلمان الفارسي	ج	نعيم بن مسعود	د	سعيد بن زيد	
٤	عمل النبي صلى الله عليه وسلم في أول شبابه عدد من الأعمال من أبرزها :							
أ	الزراعة	ب	الصناعة	ج	رعي الغنم	د	الحدادة	
٥	أول عمل قام به الرسول صلى الله عليه وسلم في مكة بعد الفتح							
أ	تحطيم الأصنام	ج	المؤاخاة بين المهاجرين والأنصار	د	عقد هدنة مع اليهود	د	التوجه لمحاربة قبائل الجزيرة العربية	
٦	أسهم النبي صلى الله عليه وسلم في حل بعض مشكلات مجتمعه ومن ذلك :							
أ	حفر بئر زمزم	ب	بناء المسجد الأقصى	ج	تجديد بناء الكعبة	د	ترميم الأصنام	
٧	كانت الحالة السياسية في شبه الجزيرة العربية قبل الإسلام قائمة على :							
أ	الوحدة	ب	الاضطراب	ج	التعاون	د	التضامن	
٨	عدد الذين بايعوا النبي صلى الله عليه وسلم							
أ	١٢ رجلاً	ب	١٣ رجلاً	ج	١٤ رجلاً	د	١٥ رجلاً	
٩	وجدت عند العرب قبل الإسلام بعض الممارسات والعادات السيئة :							
أ	الوفاة بالعهد	ب	العصبية القبلية	ج	الشجاعة والكرم	د	حماية الجار والمروءة	
١٠	يدل موقف نبينا صلى الله عليه وسلم مع قريش عند فتح مكة على خلق :							
أ	العفو	ب	الأمانة	ج	الزهد	د	الصدق	

السؤال الثاني : ضع إشارة (✓) امام الإجابة الصحيحة وإشارة (×) أمام الإجابة الخاطئة:

١	أشار على النبي بحفر الخندق في غزوة الأحزاب (الخندق)	
٢	جميع اولاد النبي صلى الله عليه وسلم من زوجته خديجة ماعدا إبراهيم من مارية القبطية	
٣	السرية هي المعركة التي قادها النبي صلى الله عليه وسلم بنفسه	
٤	هاجر المسلمون الاوائل الى مصر	
٥	كان النبي صلى الله عليه وسلم يوصف بين قومه بالصادق الأمين	
٦	الذي كفل الرسول صلى الله عليه وسلم بعد وفاة والدته هو عمه أبوطالب	
٧	كانت السمة العامة للحالة السياسية في شبة الجزيرة العربية قبل الاسلام الاضطراب والنزاعات	
٨	فتح مكة كان في السنة ١٠من الهجرة	
٩	صحب النبي عليه السلام عمه أبو طالب في رحلة تجارية إلى بلاد الشام	
١٠	بدأت بوادر الوحي على النبي صلى الله عليه وسلم بـالرؤيا الصادقة	

السؤال الثالث :

عدد اثنين مما يلي :

أ . أعمال النبي صلى الله عليه وسلم في المدينة :

١.....٢.....

ب. الأخلاق الحسنة عند العرب قبل الإسلام :

١.....٢.....

المملكة العربية	المادة : الدراسات الاجتماعية
وزارة التعليم	الصف: الأول متوسط
اسم الطالب:	اختبار الفترة الثانية

نموذج الإجابة

السؤال الأول: اختار الإجابة الصحيحة فيما يلي بوضع دائرة عليها:

١	نزل الوحي على النبي صلى الله عليه وسلم وعمره							
أ	٣٠سنة	ب	٤٠سنة	ج	٥٠سنة	د	٦٠سنة	
٢	وقعت غزوة بدر في السنة							
أ	٢ من الهجرة	ب	٣ من الهجرة	ج	٤ من الهجرة	د	٥ من الهجرة	
٣	اشار على النبي بحفر الخندق في غزوة الأحزاب (الخندق)							
أ	مصعب ابن عمير	ب	سلمان الفارسي	ج	نعيم بن مسعود	د	سعيد بن زيد	
٤	عمل النبي صلى الله عليه وسلم في أول شبابه عدد من الأعمال من أبرزها :							
أ	الزراعة	ب	الصناعة	ج	رعي الغنم	د	الحدادة	
٥	أول عمل قام به الرسول صلى الله عليه وسلم في مكة بعد الفتح							
أ	تحطيم الأصنام	ج	المؤاخاة بين المهاجرين والأنصار	د	عقد هدنة مع اليهود	د	التوجه لمحاربة قبائل الجزيرة العربية	
٦	أسهم النبي صلى الله عليه وسلم في حل بعض مشكلات مجتمعه ومن ذلك :							
أ	حفر بئر زمزم	ب	بناء المسجد الأقصى	ج	تجديد بناء الكعبة	د	ترميم الأصنام	
٧	كانت الحالة السياسية في شبه الجزيرة العربية قبل الإسلام قائمة على :							
أ	الوحدة	ب	الاضطراب	ج	التعاون	د	التضامن	
٨	عدد الذين بايعوا النبي صلى الله عليه وسلم							
أ	١٢ رجلاً	ب	١٣ رجلاً	ج	١٤ رجلاً	د	١٥ رجلاً	
٩	وجدت عند العرب قبل الإسلام بعض الممارسات والعادات السيئة :							
أ	الوفاة بالعهد	ب	العصبية القبلية	ج	الشجاعة والكرم	د	حماية الجار والمروءة	
١٠	يدل موقف نبينا صلى الله عليه وسلم مع قريش عند فتح مكة على خلق :							
أ	العفو	ب	الأمانة	ج	الزهد	د	الصدق	

السؤال الثاني : ضع إشارة (✓) امام الإجابة الصحيحة وإشارة (×) أمام الإجابة الخاطئة:

١	أشار على النبي بحفر الخندق في غزوة الأحزاب (الخندق)	✓
٢	جميع اولاد النبي صلى الله عليه وسلم من زوجته خديجة ماعدا إبراهيم من مارية القبطية	✓
٣	السرية هي المعركة التي قادها النبي صلى الله عليه وسلم بنفسه	×
٤	هاجر المسلمون الاوائل الى مصر	×
٥	كان النبي صلى الله عليه وسلم يوصف بين قومه بالصادق الأمين	✓
٦	الذي كفل الرسول صلى الله عليه وسلم بعد وفاة والدته هو عمه أبوطالب	×
٧	كانت السمة العامة للحالة السياسية في شبة الجزيرة العربية قبل الاسلام الاضطراب والنزاعات	✓
٨	فتح مكة كان في السنة ١٠من الهجرة	×
٩	صحب النبي عليه السلام عمه أبو طالب في رحلة تجارية إلى بلاد الشام	✓
١٠	بدأت بوادر الوحي على النبي صلى الله عليه وسلم بـالرؤيا الصادقة	✓

السؤال الثالث :

عدد اثنين مما يلي :

أ . أعمال النبي صلى الله عليه وسلم في المدينة :

١ ..... بناء المسجد النبوي ٢ ..... المؤاخاة بين المهاجرين والأنصار

ب. الأخلاق الحسنة عند العرب قبل الإسلام :

١ ..... حماية الجار والمروءة ٢ ..... الوفاء بالعهد

المملكة العربية السعودية
وزارة التعليم
إدارة تعليم بمنطقة مكة المكرمة
مدرسة .....
محمد القرني

وزارة التعليم
Ministry of Education

نموذج اسئلة اختبار قصير
المادة: الدراسات الاجتماعية
الصف: الأول المتوسط
الفصل الدراسي الاول
1448هـ



اسم الطالب/ة	الفصل	الدرجة من 20

السؤال الأول	ضع/ي الرقم المناسب أمام المجموعة الأولى أمام ما يناسبها من المجموعة الثانية؟	5 درجات

الرقم	المجموعة الأولى	الرقم	المجموعة الثانية
1	خطوات تنظيم الوقت		التفوق و النجاح
2	التخطيط		رؤية مستقبلية تمثّل نموذجاً فريداً للتخطيط المستقبلي
3	من أسس التخطيط		القلق و التوتّر
4	رؤية 2030		تنظيم الوقت
5	من نتائج التخطيط		الاعداد المنظم للمهام و الاعمال وتحديد الزمن لتنفيذها و انجازها
			اعداد قائمة بالاعمال و المهام اليومية

السؤال الثاني	أيُّهما تُفَضِّل عند التخطيط للمذاكرة (التطبيقات الالكترونية أو الورقة و القلم) ؟	4 درجات

أفَضِّلُ:
السبب:

السؤال الثالث	ضع/ي علامة (√) أمام العبارة الصائبة وعلامة (×) أ ؟	7 درجات

1	تحديد وقت للراحة المنتظمة خلال اليوم	
2	الجدِّية في الالتزام بالتخطيط و تنظيم الوقت وتنفيذ المهام	
3	تحديد الاعمال دون ومن و وقت لتنفيذها	
4	من اهم اهداف التخطيط بناء الشخصية و الاستمتاع بالوقت	
5	تعتني رؤية المملكة 2030 ببناء شخصية وطنية تحرص على التخطيط و تنظيم الوقت	
6	المميزون و المبدعون دائماً يخطّطون	
7	ليس مهماً عندما نخطط ان نقوم بحصر المهام و الاعمال اليومية	

السؤال الرابع	حدد بوضع علامة (×) على الصور التى تُمَثِّل عدم التخطيط ؟	4 درجات







نموذج الإجابة

نموذج اسئلة اختبار قصير
المادة: الدراسات الاجتماعية
الصف: الأول المتوسط
الفصل الدراسي الاول
1448هـ

Ministry of Education

محمد القرني



اسم الطالب/ة	الفصل	الدرجة من 20

السؤال الأول — ضع/ي الرقم المناسب أمام المجموعة الأولى أمام ما يناسبها من المجموعة الثانية؟ — **5 درجات**

الرقم	المجموعة الأولى	الرقم	المجموعة الثانية
1	خطوات تنظيم الوقت	6	التفوق و النجاح
2	التخطيط	5	رؤية مستقبلية تمثّل نموذجاً فريداً للتخطيط المستقبلي
3	من أسس التخطيط	4	القلق و التوتّر
4	رؤية 2030	2	تنظيم الوقت
5	من نتائج التخطيط	1	الاعداد المنظم للمهام و الاعمال وتحديد الزمن لتنفيذها و انجازها
			اعداد قائمة بالاعمال و المهام اليومية

السؤال الثاني — أيُّهما تُفَضِّل عند التخطيط للمذاكرة (التطبيقات الالكترونية أو الورقة و القلم) ؟ — **4 درجات**

أفَضِّلُ: التطبيقات الالكترونية

السبب: لأن التطبيقات الإلكترونية توفر العديد من النماذج للتخطيط للمذاكرة.

السؤال الثالث — ضع/ي علامة (√) أمام العبارة الصائبة وعلامة (×) أ ؟ — **7 درجات**

1	تحديد وقت للراحة المنتظمة خلال اليوم	√
2	الجدِّية في الالتزام بالتخطيط و تنظيم الوقت وتنفيذ المهام	√
3	تحديد الاعمال دون ومن و وقت لتنفيذها	×
4	من اهم اهداف التخطيط بناء الشخصية و الاستمتاع بالوقت	√
5	تعتنى رؤية المملكة 2030 ببناء شخصية وطنية تحرص على التخطيط و تنظيم الوقت	√
6	المميزون و المبدعون دائماً يخطّطون	√
7	ليس مهماً عندما نخطط ان نقوم بحصر المهام و الاعمال اليومية	×

السؤال الرابع — حدد بوضع علامة (×) على الصور التى تُمَثِّل عدم التخطيط ؟ — **4 درجات**







المملكة العربية السعودية	إدارة تعليم		المادة : الدراسات الاجتماعية
وزارة التعليم	مدرسة		الصف: الأول متوسط
اسم الطالب/ة:			اختبار الوحدة الثالثة

السؤال الأول: اختار الإجابة الصحيحة فيما يلي بوضع دائرة عليها:

١	يساعدنا التخطيط على تحقيق عدد من الأهداف منها:							
أ	هدر الوقت	ب	النجاح والتفوق	ج	ضياع الصحة	د	ضعف الشخصية	
٢	فوائد تنظيم الوقت							
أ	الحد من التوتر والقلق	ب	تنظيم المكان وتهيئته	ج	حصر الأعمال اليومية	د	تصميم جدول الأعمال	
٣	نتائج التخطيط							
أ	اهدار الوقت	ب	ضياع الصحة	ج	تحقيق الأهداف	د	عدم مواكبة التغيرات	
٤	يؤدي التخطيط إلى:							
أ	تسويف الأعمال	ب	قلة التفكير	ج	بناء الشخصية	د	قلة الإنتاجية	
٥	أهم خطوات تنظيم الوقت:							
أ	العمل أربعة وعشرون ساعة	ب	حصر الأعمال اليومية	ج	ترتيب الأعمال الغير مهمة	د	عدم التوازن بين العمالة	
٦	مرحلة تحضيرية للعمل وخطوة ممنهجة ومنظمة لتحديد المهام والأعمال ومواعيد القيام بها وكيفية إنجازها يطلق عليها بـ							
أ	التخطيط	ب	الانجاز	ج	التطوير	د	الطموح	
٧	أي من التالي يعد من أهم فوائد تنظيم الوقت؟							
أ	زيادة وقت مشاهدة التلفاز.	ب	تحقيق التوازن بين الدراسة والراحة والعبادة.	ج	النوم لساعات أطول.	د	تجنب جميع الأعمال المنزلية.	
٨	ما هي الخطوة الأولى التي يجب عليك القيام بها عند تنظيم وقتك؟							
أ	البدء فورًا في أداء المهام.	ب	تحديد وقت للراحة والاسترخاء.	ج	إعداد قائمة بجميع الأعمال اليومية.	د	شراء مفكرة جديدة.	
٩	إحدى النتائج الإيجابية للتخطيط هي المحافظة على الصحة، ويتم ذلك من خلال:							
أ	السهر طوال الليل للمذاكرة.	ب	تناول وجبات غير صحية بسرعة.	ج	انتظام النوم ومواعيد تناول الوجبات.	د	تجنب ممارسة أي نشاط بدني.	
١٠	تصميم جدول للأعمال اليومية يساعد بشكل مباشر على:							
أ	تقليل التوتر والقلق من تراكم المهام.	ب	زيادة عدد الأصدقاء.	ج	الحصول على مصروف أكبر.	د	عدم الذهاب إلى المدرسة.	

السؤال الثاني : عدد اثنين مما يلي :

أ- من فوائد تنظيم الوقت :

١- ٢-

ب- من خطوات تنظيم الوقت للمهام الدراسية :

١- ٢-

السؤال الثالث : ضع إشارة (✓) امام الإجابة الصحيحة وإشارة (×) أمام الإجابة الخاطئة:

١	يساعد التخطيط في انجاز المهام	
٢	من نتائج التخطيط التوتر والقلق	
٣	من أسس التخطيط الجيد تنظيم الوقت	
٤	التخطيط عامل من عوامل إهدار الوقت	
٥	البدء بالأعمال غير المهمة أولاً من الأولويات	
٦	إنجاز الأعمال في وقتها من فوائد تنظيم الوقت	
٧	تحديد الأهداف لا يفيد في التخطيط الجيد	
٨	التخطيط يعني تحديد الأهداف ورسم طرائق مناسبة لتحقيقها	
٩	النجاح في الحياة لا يتطلب تخطيطًا مسبقًا، بل يعتمد على الحظ فقط	
٩	من فوائد التخطيط أنه يساعد على معرفة ما يجب علينا فعله ومتى نؤديه	
١٠	التخطيط الجيد يضيع الوقت ويزيد من الفوضى في حياة الطالب	
١١	يساعد التخطيط على تحقيق التوازن بين أداء الواجبات المدرسية والاستمتاع بالوقت الشخصي.	
١٢	النجاح في الدراسة يعتمد فقط على الذكاء ولا علاقة له بتنظيم الوقت	
١٣	من الضروري أن يكون جدولك الزمني مرنًا وقابلاً للتعديل عند حدوث طارئ	
١٤	تنظيم الوقت يعني العمل المستمر دون أي أوقات للراحة أو الترفيه	
١٥	استخدام تطبيق إلكتروني لتنظيم الوقت أفضل دائمًا من استخدام القلم والورقة	
١٦	إنجاز المهام في وقتها المحدد يساعد على زيادة الثقة بالنفس والشعور بالإنجاز	

المملكة العربية الـ	المادة : الدراسات الاجتماعية
وزارة التعليم	الصف: الأول متوسط
اسم الطالب/ة:	اختبار الوحدة الثالثة

نموذج الإجابة

السؤال الأول: اختار الإجابة الصحيحة فيما يلي بوضع دائرة عليها:

١	يساعدنا التخطيط على تحقيق عدد من الأهداف منها:							
أ	هدر الوقت	ب	النجاح والتفوق	ج	ضياع الصحة	د	ضعف الشخصية	
٢	فوائد تنظيم الوقت							
أ	الحد من التوتر والقلق	ب	تنظيم المكان وتهيئته	ج	حصر الأعمال اليومية	د	تصميم جدول الأعمال	
٣	نتائج التخطيط							
أ	اهدار الوقت	ب	ضياع الصحة	ج	تحقيق الأهداف	د	عدم مواكبة التغيرات	
٤	يؤدي التخطيط إلى:							
أ	تسويف الأعمال	ب	قلة التفكير	ج	بناء الشخصية	د	قلة الإنتاجية	
٥	أهم خطوات تنظيم الوقت:							
أ	العمل أربعة وعشرون ساعة	ب	حصر الأعمال اليومية	ج	ترتيب الأعمال الغير مهمة	د	عدم التوازن بين العمالة	
٦	مرحلة تحضيرية للعمل وخطوة ممنهجة ومنظمة لتحديد المهام والأعمال ومواعيد القيام بها وكيفية إنجازها يطلق عليها بـ							
أ	التخطيط	ب	الانجاز	ج	التطوير	د	الطموح	
٧	أي من التالي يعد من أهم فوائد تنظيم الوقت؟							
أ	زيادة وقت مشاهدة التلفاز.	ب	تحقيق التوازن بين الدراسة والراحة والعبادة.	ج	النوم لساعات أطول.	د	تجنب جميع الأعمال المنزلية.	
٨	ما هي الخطوة الأولى التي يجب عليك القيام بها عند تنظيم وقتك؟							
أ	البدء فورًا في أداء المهام.	ب	تحديد وقت للراحة والاسترخاء.	ج	إعداد قائمة بجميع الأعمال اليومية.	د	شراء مفكرة جديدة.	
٩	إحدى النتائج الإيجابية للتخطيط هي المحافظة على الصحة، ويتم ذلك من خلال:							
أ	السهر طوال الليل للمذاكرة.	ب	تناول وجبات غير صحية بسرعة.	ج	انتظام النوم ومواعيد تناول الوجبات.	د	تجنب ممارسة أي نشاط بدني.	
١٠	تصميم جدول للأعمال اليومية يساعد بشكل مباشر على:							
أ	تقليل التوتر والقلق من تراكم المهام.	ب	زيادة عدد الأصدقاء.	ج	الحصول على مصروف أكبر.	د	عدم الذهاب إلى المدرسة.	

السؤال الثاني : عدد اثنين مما يلي :

أ- من فوائد تنظيم الوقت :

١- الحد من التوتر والقلق ٢- أداء الأعمال في الوقت المحدد له

ب- من خطوات تنظيم الوقت للمهام الدراسية :

١-كتابة جميع الأعمال في قائمة واحدة ٢- إعداد قائمة الأعمال اليومية بعد حصرها.

السؤال الثالث : ضع إشارة (✓) امام الإجابة الصحيحة وإشارة (×) أمام الإجابة الخاطئة:

١	يساعد التخطيط في انجاز المهام	✓
٢	من نتائج التخطيط التوتر والقلق	×
٣	من أسس التخطيط الجيد تنظيم الوقت	✓
٤	التخطيط عامل من عوامل إهدار الوقت	×
٥	البدء بالأعمال غير المهمة أولاً من الأولويات	×
٦	إنجاز الأعمال في وقتها من فوائد تنظيم الوقت	✓
٧	تحديد الأهداف لا يفيد في التخطيط الجيد	×
٨	التخطيط يعني تحديد الأهداف ورسم طرائق مناسبة لتحقيقها	✓
٩	النجاح في الحياة لا يتطلب تخطيطًا مسبقًا، بل يعتمد على الحظ فقط	×
٩	من فوائد التخطيط أنه يساعد على معرفة ما يجب علينا فعله ومتى نؤديه	✓
١٠	التخطيط الجيد يضيع الوقت ويزيد من الفوضى في حياة الطالب	×
١١	يساعد التخطيط على تحقيق التوازن بين أداء الواجبات المدرسية والاستمتاع بالوقت الشخصي.	✓
١٢	النجاح في الدراسة يعتمد فقط على الذكاء ولا علاقة له بتنظيم الوقت	×
١٣	من الضروري أن يكون جدولك الزمني مرنًا وقابلاً للتعديل عند حدوث طارئ	✓
١٤	تنظيم الوقت يعني العمل المستمر دون أي أوقات للراحة أو الترفيه	×
١٥	استخدام تطبيق إلكتروني لتنظيم الوقت أفضل دائمًا من استخدام القلم والورقة	×
١٦	إنجاز المهام في وقتها المحدد يساعد على زيادة الثقة بالنفس والشعور بالإنجاز	✓

المملكة العربية السعودية.
وزارة التعليم.
إدارة تعليم .
مكتب تعليم ..
مدرسة

بسم الله الرحمن الرحيم

المادة الدراسات الاجتماعية.

الصف الأول المتوسط

اختبار الوحدة الثالثة التخطيط	
الاسم :	

السؤال الأول:

اختر الإجابة الصحيحة لكل فقرة من الفقرات التالية:

1	ما هو التعريف الأدق لمفهوم 'التخطيط'؟			
	القيام بالأعمال بشكل عشوائي.	الإعداد المنظم لتحديد المهام المستقبلية ومواعيدها وكيفية إنجازها.	تأجيل جميع الأعمال إلى وقت لاحق.	التركيز على مهمة واحدة فقط وتجاهل البقية.
2	أي من التالي يعد من أهم أهداف التخطيط للطالب؟			
	زيادة وقت اللعب فقط.	إلغاء الواجبات المدرسية.	استغلال الوقت بحكمة لتحقيق النجاح الدراسي.	النوم لساعات طويلة جدًا.
3	كيف يساهم التخطيط في بناء الشخصية الوطنية حسب الدرس؟			
	من خلال تشجيع الكسل.	بجعل الفرد غير مبالٍ بالمستقبل.	بمواكبة طموحات رؤية المملكة 2030 التي تحث على الإنجاز والإتقان.	عن طريق تجاهل الواجبات المجتمعية.
4	طالب لديه واجبات مدرسية ونشاط رياضي، ما أفضل طريقة لإدارة يومه؟			
	تأدية النشاط الرياضي وتأجيل الواجبات.	وضع خطة يومية توازن بين أداء الواجبات وممارسة الرياضة.	ترك الواجبات والرياضة والخلود للراحة.	القيام بالواجبات في وقت متأخر من الليل.
5	إحدى النتائج الإيجابية للتخطيط هي المحافظة على الصحة، ويتم ذلك من خلال:			
	السهر طوال الليل للمذاكرة.	تناول وجبات غير صحية بسرعة.	انتظام النوم ومواعيد تناول الوجبات.	تجنب ممارسة أي نشاط بدني.
6	ما هي الخطوة الأولى التي يجب عليك القيام بها عند تنظيم وقتك؟			
	البدء فورًا في أداء المهام.	تحديد وقت للراحة والاسترخاء.	إعداد قائمة بجميع الأعمال اليومية.	شراء مفكرة جديدة.
7	أي من التالي يعد من أهم فوائد تنظيم الوقت؟			
	زيادة وقت مشاهدة التلفاز.	تحقيق التوازن بين الدراسة والراحة والعبادة.	النوم لساعات أطول.	تجنب جميع الأعمال المنزلية.
8	عند ترتيب الأعمال في جدولك، يجب أن تبدأ بـ:			

	الأعمال الأسهل والأكثر متعة.	الأعمال التي يطلبها منك أصدقاؤك.	الأعمال الأكثر أهمية وعجلة.	الأعمال التي تستغرق وقتًا قصيرًا.
9	تخصيص وقت للراحة بين المهام الدراسية يؤدي إلى:			
	الشعور بالملل والكسل.	تجديد النشاط وزيادة التركيز.	نسيان ما قمت بدراسته.	تأخير إنجاز الواجبات.
10	تصميم جدول للأعمال اليومية يساعد بشكل مباشر على:			
	تقليل التوتر والقلق من تراكم المهام.	زيادة عدد الأصدقاء.	الحصول على مصروف أكبر.	عدم الذهاب إلى المدرسة.

السؤال الثاني :

حدد كلمة صح أو خطأ لكل فقرة من الفقرات الآتية:

1	التخطيط يعني تحديد الأهداف ورسم طرائق مناسبة لتحقيقها.	○ صح	○ خطأ
2	النجاح في الحياة لا يتطلب تخطيطًا مسبقًا، بل يعتمد على الحظ فقط.	○ صح	○ خطأ
3	من فوائد التخطيط أنه يساعد على معرفة ما يجب علينا فعله ومتى نؤديه.	○ صح	○ خطأ
4	التخطيط الجيد يضيع الوقت ويزيد من الفوضى في حياة الطالب.	○ صح	○ خطأ
5	يساعد التخطيط على تحقيق التوازن بين أداء الواجبات المدرسية والاستمتاع بالوقت الشخصي.	○ صح	○ خطأ
6	النجاح في الدراسة يعتمد فقط على الذكاء ولا علاقة له بتنظيم الوقت.	○ صح	○ خطأ
7	من الضروري أن يكون جدولك الزمني مرنًا وقابلاً للتعديل عند حدوث طارئ.	○ صح	○ خطأ
8	تنظيم الوقت يعني العمل المستمر دون أي أوقات للراحة أو الترفيه.	○ صح	○ خطأ
9	استخدام تطبيق إلكتروني لتنظيم الوقت أفضل دائمًا من استخدام القلم والورقة.	○ صح	○ خطأ
10	إنجاز المهام في وقتها المحدد يساعد على زيادة الثقة بالنفس والشعور بالإنجاز.	○ صح	○ خطأ

انتهت الأسئلة ,,,,

نموذج الإجابة

المادة الدراسات الاجتماعية.

الصف الأول المتوسط

اختبار الوحدة الثالثة التخطيط	
الاسم :	

السؤال الأول:

اختر الإجابة الصحيحة لكل فقرة من الفقرات التالية:

1	ما هو التعريف الأدق لمفهوم 'التخطيط'؟			
	القيام بالأعمال بشكل عشوائي.	الإعداد المنظم لتحديد المهام المستقبلية ومواعيدها وكيفية إنجازها.	تأجيل جميع الأعمال إلى وقت لاحق.	التركيز على مهمة واحدة فقط وتجاهل البقية.
2	أي من التالي يعد من أهم أهداف التخطيط للطالب؟			
	زيادة وقت اللعب فقط.	إلغاء الواجبات المدرسية.	استغلال الوقت بحكمة لتحقيق النجاح الدراسي.	النوم لساعات طويلة جدًا.
3	كيف يساهم التخطيط في بناء الشخصية الوطنية حسب الدرس؟			
	من خلال تشجيع الكسل.	بجعل الفرد غير مبالٍ بالمستقبل.	بمواكبة طموحات رؤية المملكة 2030 التي تحث على الإنجاز والإتقان.	عن طريق تجاهل الواجبات المجتمعية.
4	طالب لديه واجبات مدرسية ونشاط رياضي، ما أفضل طريقة لإدارة يومه؟			
	تأدية النشاط الرياضي وتأجيل الواجبات.	وضع خطة يومية توازن بين أداء الواجبات وممارسة الرياضة.	ترك الواجبات والرياضة والخلود للراحة.	القيام بالواجبات في وقت متأخر من الليل.
5	إحدى النتائج الإيجابية للتخطيط هي المحافظة على الصحة، ويتم ذلك من خلال:			
	السهر طوال الليل للمذاكرة.	تناول وجبات غير صحية بسرعة.	انتظام النوم ومواعيد تناول الوجبات.	تجنب ممارسة أي نشاط بدني.
6	ما هي الخطوة الأولى التي يجب عليك القيام بها عند تنظيم وقتك؟			
	البدء فورًا في أداء المهام.	تحديد وقت للراحة والاسترخاء.	إعداد قائمة بجميع الأعمال اليومية.	شراء مفكرة جديدة.
7	أي من التالي يعد من أهم فوائد تنظيم الوقت؟			
	زيادة وقت مشاهدة التلفاز.	تحقيق التوازن بين الدراسة والراحة والعبادة.	النوم لساعات أطول.	تجنب جميع الأعمال المنزلية.
8	عند ترتيب الأعمال في جدولك، يجب أن تبدأ بـ:			

	الأعمال الأسهل والأكثر متعة.	الأعمال التي يطلبها منك أصدقاؤك.	الأعمال الأكثر أهمية وعجلة.	الأعمال التي تستغرق وقتًا قصيرًا.
9	تخصيص وقت للراحة بين المهام الدراسية يؤدي إلى:			
	الشعور بالملل والكسل.	تجديد النشاط وزيادة التركيز.	نسيان ما قمت بدراسته.	تأخير إنجاز الواجبات.
10	تصميم جدول للأعمال اليومية يساعد بشكل مباشر على:			
	تقليل التوتر والقلق من تراكم المهام.	زيادة عدد الأصدقاء.	الحصول على مصروف أكبر.	عدم الذهاب إلى المدرسة.

السؤال الثاني :

حدد كلمة صح أو خطأ لكل فقرة من الفقرات الآتية:

1	التخطيط يعني تحديد الأهداف ورسم طرائق مناسبة لتحقيقها.	○ صح	○ خطأ
2	النجاح في الحياة لا يتطلب تخطيطًا مسبقًا، بل يعتمد على الحظ فقط.	○ صح	○ خطأ
3	من فوائد التخطيط أنه يساعد على معرفة ما يجب علينا فعله ومتى نؤديه.	○ صح	○ خطأ
4	التخطيط الجيد يضيع الوقت ويزيد من الفوضى في حياة الطالب.	○ صح	○ خطأ
5	يساعد التخطيط على تحقيق التوازن بين أداء الواجبات المدرسية والاستمتاع بالوقت الشخصي.	○ صح	○ خطأ
6	النجاح في الدراسة يعتمد فقط على الذكاء ولا علاقة له بتنظيم الوقت.	○ صح	○ خطأ
7	من الضروري أن يكون جدولك الزمني مرنًا وقابلاً للتعديل عند حدوث طارئ.	○ صح	○ خطأ
8	تنظيم الوقت يعني العمل المستمر دون أي أوقات للراحة أو الترفيه.	○ صح	○ خطأ
9	استخدام تطبيق إلكتروني لتنظيم الوقت أفضل دائمًا من استخدام القلم والورقة.	○ صح	○ خطأ
10	إنجاز المهام في وقتها المحدد يساعد على زيادة الثقة بالنفس والشعور بالإنجاز.	○ صح	○ خطأ

انتهت الأسئلة ,,,,

المملكة العربية السعودية
وزارة التعليم
إدارة تعليم بمحافظة .....
مكتب تعليم .....
مدرسة .....

نموذج اسئلة الاختبار متصف الفصل
المادة: الدراسات الاجتماعية
الصف: الأول المتوسط
الفصل الدراسي الأول
1448هـ



اسم الطالب/ة	الفصل	الدرجة من 20

السؤال الأول	ضع/ي الرقم المناسب أمام المجموعة الأولى أمام ما يناسبها من المجموعة الثانية؟	5 درجات

الرقم	المجموعة الأولى	الرقم	المجموعة الثانية
1	حليمة السعدية		أول من آمن بالنبي من النساء
2	مصعب بن عمير		كان رفيق و صاحب النبي في الهجرة
3	سلمان الفارسي		مرضعة النبي صلى الله عليه وسلم
4	خديجة بنت خويلد		أمره النبي بأن يزعزع صفوف المشركين بالخدعة
5	نعيم بن مسعود		أرسله النبي مع المبايعين الى يثرب ليعلمهم الدين
			أشار على النبي صلى الله عليه وسلم بحفر الخندق

السؤال الثاني	قارنـ/ي بين معركتي بدر و أحد وفق الجدول أدناه ؟	4 درجات

معركة بدر	وجه المقارنة	معركة أحد
	العام التي وقعت فيه	
	نتيجتها	

السؤال الثالث	ضعـ/ي علامة (√) أمام العبارة الصائبة وعلامة (×) أ ؟	7 درجات

1	اتسمت الحالة السياسية في شبة الجزيرة العربية قبل الإسلام بالحروب و الصراعات و التنافر	
2	ولد النبي محمد صلى الله عليه وسلم في مكة المكرمة في شهر ربيع الاول من عام الفيل	
3	هاجر المسلمون الأوائل الى مصر	
4	حدثت ثلاث بيعات في العقبة	
5	من نتائج وثيقة المدينة التعايش بين المسلمين و اليهود	
6	كان فتح مكة في العام الثامن من الهجرة	
7	الحاضرة وهم السكان المستقرون في المدن والقرى	

السؤال الثالث	أكملـ/ـي خرائط المفاهيم التالية ؟	4 درجات

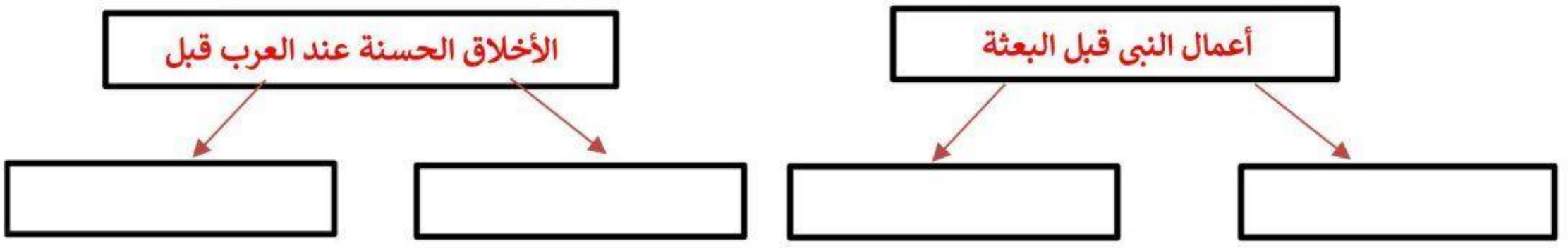

نموذج الإجابة

لاختبار متصف الفصل
راسات الاجتماعية
الأول المتوسط
الفصل الدراسي الاول
1448هـ

وزارة التعليم
Ministry of Education

مكتب تعليم .....
مدرسة .....



اسم الطالب/ة	الفصل	الدرجة من 20
نموذج اجابة		

السؤال الأول	ضع/ي الرقم المناسب أمام المجموعة الأولى أمام ما يناسبها من المجموعة الثانية؟	5 درجات

الرقم	المجموعة الأولى	الرقم	المجموعة الثانية
1	حليمة السعدية	4	أول من آمن بالنبي من النساء
2	مصعب بن عمير		كان رفيق و صاحب النبي في الهجرة
3	سلمان الفارسي	1	مرضعة النبي صلى الله عليه وسلم
4	خديجة بنت خويلد	5	أمره النبي بأن يزعزع صفوف المشركين بالخدعة
5	نعيم بن مسعود	2	أرسله النبي مع المبايعين الى يثرب ليعلمهم الدين
		3	أشار على النبي صلى الله عليه وسلم بحفر الخندق

السؤال الثاني	قارنـ/ي بين معركتي بدر و أحد وفق الجدول أدناه ؟	4 درجات

معركة بدر	وجه المقارنة	معركة أحد
2 هـ	العام التي وقعت فيه	3 هـ
انتصار المسلمين	نتيجتها	انهزم المسلمون

السؤال الثالث	ضعـ/ي علامة (√) أمام العبارة الصائبة وعلامة (×) أ ؟	7 درجات

1	اتسمت الحالة السياسية في شبة الجزيرة العربية قبل الإسلام بالحروب و الصراعات و التنافر	√
2	ولد النبي محمد صلى الله عليه وسلم في مكة المكرمة في شهر ربيع الاول من عام الفيل	√
3	هاجر المسلمون الأوائل الى مصر	×
4	حدثت ثلاث بيعات في العقبة	×
5	من نتائج وثيقة المدينة التعايش بين المسلمين و اليهود	√
6	كان فتح مكة في العام الثامن من الهجرة	√
7	الحاضرة وهم السكان المستقرون في المدن والقرى	√

السؤال الثالث	أكملـ/ـي خرائط المفاهيم التالية ؟	4 درجات

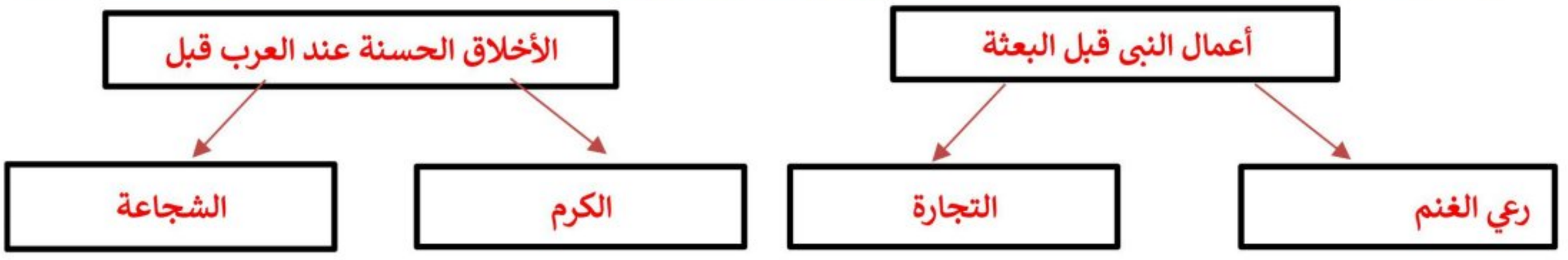

المملكة العربية السعودية	إدارة تعليم	المادة : الدراسات الاجتماعية
وزارة التعليم	مدرسة	الصف: الأول متوسط
اسم الطالب/ة:		اختبار الفترة الرابعة

السؤال الأول: اختار الإجابة الصحيحة فيما يلي بوضع دائرة عليها:

١	نزل الوحي على النبي صلى الله عليه وسلم وعمره							
أ	٣٠سنة	ب	٤٠سنة	ج	٥٠سنة	د	٦٠سنة	
٢	وقعت غزوة بدر في السنة							
أ	٢ من الهجرة	ب	٣ من الهجرة	ج	٤ من الهجرة	د	٥ من الهجرة	
٣	اشار على النبي بحفر الخندق في غزوة الأحزاب (الخندق)							
أ	مصعب ابن عمير	ب	سلمان الفارسي	ج	نعيم بن مسعود	د	سعيد بن زيد	
٤	عمل النبي صلى الله عليه وسلم في أول شبابه عدد من الأعمال من أبرزها :							
أ	الزراعة	ب	الصناعة	ج	رعي الغنم	د	الحدادة	
٥	أول عمل قام به الرسول صلى الله عليه وسلم في مكة بعد الفتح							
أ	تحطيم الأصنام	ب	المؤاخاة بين المهاجرين والأنصار	ج	عقد هدنة مع اليهود	د	التوجه لمحاربة قبائل الجزيرة العربية	
٦	أسهم النبي صلى الله عليه وسلم في حل بعض مشكلات مجتمعه ومن ذلك :							
أ	حفر بئر زمزم	ب	بناء المسجد الأقصى	ج	تجديد بناء الكعبة	د	ترميم الأصنام	
٧	كانت الحالة السياسية في شبه الجزيرة العربية قبل الإسلام قائمة على :							
أ	الوحدة	ب	الاضطراب	ج	التعاون	د	التضامن	
٨	عدد الذين بايعوا النبي صلى الله عليه وسلم							
أ	١٢ رجلاً	ب	١٣ رجلاً	ج	١٤ رجلاً	د	١٥ رجلاً	
٩	وجدت عند العرب قبل الإسلام بعض الممارسات والعادات السيئة :							
أ	الوفاة بالعهد	ب	العصبية القبلية	ج	الشجاعة والكرم	د	حماية الجار والمروءة	
١٠	جهر النبي صلى الله عليه وسلم بالدعوة في المرحلة الجهرية :							
أ	استعدادا للحرب	ب	استجابة لأمر الله	ج	إقرار من بني هاشم	د	لزيادة أعداد اليهود	
١١	الأسباب الرئيسية في هزيمة المسلمين في غزوة أحد :							
أ	قلة عدد المسلمين	ب	اشتداد الحصار على المسلمين	ج	مخالفة الرماة لأوامر الرسول صلى الله عليه وسلم	د	خوف المسلمين من قريش	
١٢	كان حصار الشّعب في السنة							
أ	٥ من البعثة	ب	٦ من البعثة	ج	٧ من البعثة	د	٨ من البعثة	
١٣	أسواق العرب قبل الإسلام :							
أ	عكاظ وذو المجاز	ب	الوطن وذو المجنة	ج	المدينة والحجاز	د	الفيصلية والعرب	
١٤	يدل موقف نبينا صلى الله عليه وسلم مع قريش عند فتح مكة على خلق :							
أ	العفو	ب	الأمانة	ج	الزهد	د	الصدق	
١٥	الحملة العسكرية التي يرسلها النبي ﷺ ولا يشارك فيها بـ:							
أ	الغزوة	ب	البعثة	ج	السرية	د	الفتح	

تابع خلف الورقة

السؤال الثاني : ضع إشارة (✓) امام الإجابة الصحيحة وإشارة (×) أمام الإجابة الخاطئة:

١	كان الرسول صلى الله عليه وسلم يتعبد في غار حراء	
٢	جميع اولاد النبي صلى الله عليه وسلم من زوجته خديجة ماعدا إبراهيم من مارية القبطية	
٣	مرضعة النبي ﷺ التي عاش معها في البادية هي حليمة السعدية	
٤	هاجر المسلمون الاوائل الى مصر	
٥	كان النبي صلى الله عليه وسلم يوصف بين قومه بالصادق الأمين	
٦	الذي كفل الرسول صلى الله عليه وسلم بعد وفاة والدته هو عمه أبوطالب	
٧	كانت السمة العامة للحالة السياسية في شبة الجزيرة العربية قبل الاسلام الاضطراب والنزاعات	
٨	فتح مكة كان في السنة ١٠من الهجرة	
٩	صحب النبي عليه السلام عمه أبو طالب في رحلة تجارية إلى بلاد الشام	
١٠	بدأت بوادر الوحي على النبي صلى الله عليه وسلم بـالرؤيا الصادقة	
١١	الذي نجح في التفريق بين قريش وحلفائها في غزوة الخندق هو نعيم بن مسعود رضي الله	
١٢	أول عمل قام به نبينا في مكة بعد الفتح " المؤاخاة بين المهاجرين والأنصار "	
١٣	تقع شبه الجزيرة العربية في قلب العالم وتربط بين ثلاث قارات " أفريقيا وأوروبا وآسيا "	
١٤	الصحابي الجليل الذي هاجر مع الرسول صلى الله عليه وسلم هو أبو بكر الصديق رضي الله عنه	
١٥	بدأت بوادر الوحي على النبي صلى الله عليه وسلم بـالرؤيا الصادقة	

السؤال الثالث :

أ- من اعمال النبي صلى الله علية وسلم في المدينة المنورة

١- ٢-

١- من أولاد النبي صلى الله علية وسلم الذكور

٢- ٢-

انتهت الأسئلة

نموذج الإجابة

المملكة العربية السعودية	دة : الدراسات الاجتماعية
وزارة التعليم	ف: الأول متوسط
اسم الطالب/ة:	ار الفترة الرابعة

السؤال الأول: اختار الإجابة الصحيحة فيما يلي بوضع دائرة عليها:

١	نزل الوحي على النبي صلى الله عليه وسلم وعمره							
أ	٣٠سنة	ب	٤٠سنة	ج	٥٠سنة	د	٦٠سنة	
٢	وقعت غزوة بدر في السنة							
أ	٢ من الهجرة	ب	٣ من الهجرة	ج	٤ من الهجرة	د	٥ من الهجرة	
٣	اشار على النبي بحفر الخندق في غزوة الأحزاب (الخندق)							
أ	مصعب ابن عمير	ب	سلمان الفارسي	ج	نعيم بن مسعود	د	سعيد بن زيد	
٤	عمل النبي صلى الله عليه وسلم في أول شبابه عدد من الأعمال من أبرزها :							
أ	الزراعة	ب	الصناعة	ج	رعي الغنم	د	الحدادة	
٥	أول عمل قام به الرسول صلى الله عليه وسلم في مكة بعد الفتح							
أ	تحطيم الأصنام	ب	المؤاخاة بين المهاجرين والأنصار	ج	عقد هدنة مع اليهود	د	التوجه لمحاربة قبائل الجزيرة العربية	
٦	أسهم النبي صلى الله عليه وسلم في حل بعض مشكلات مجتمعه ومن ذلك :							
أ	حفر بئر زمزم	ب	بناء المسجد الأقصى	ج	تجديد بناء الكعبة	د	ترميم الأصنام	
٧	كانت الحالة السياسية في شبه الجزيرة العربية قبل الإسلام قائمة على :							
أ	الوحدة	ب	الاضطراب	ج	التعاون	د	التضامن	
٨	عدد الذين بايعوا النبي صلى الله عليه وسلم							
أ	١٢ رجلاً	ب	١٣ رجلاً	ج	١٤ رجلاً	د	١٥ رجلاً	
٩	وجدت عند العرب قبل الإسلام بعض الممارسات والعادات السيئة :							
أ	الوفاة بالعهد	ب	العصبية القبلية	ج	الشجاعة والكرم	د	حماية الجار والمروءة	
١٠	جهر النبي صلى الله عليه وسلم بالدعوة في المرحلة الجهرية :							
أ	استعدادا للحرب	ب	استجابة لأمر الله	ج	إقرار من بني هاشم	د	لزيادة أعداد اليهود	
١١	الأسباب الرئيسية في هزيمة المسلمين في غزوة أحد :							
أ	قلة عدد المسلمين	ب	اشتداد الحصار على المسلمين	ج	مخالفة الرماة لأوامر الرسول صلى الله عليه وسلم	د	خوف المسلمين من قريش	
١٢	كان حصار الشّعب في السنة							
أ	٥ من البعثة	ب	٦ من البعثة	ج	٧ من البعثة	د	٨ من البعثة	
١٣	أسواق العرب قبل الإسلام :							
أ	عكاظ وذو المجاز	ب	الوطن وذو المجنة	ج	المدينة والحجاز	د	الفيصلية والعرب	
١٤	يدل موقف نبينا صلى الله عليه وسلم مع قريش عند فتح مكة على خلق :							
أ	العفو	ب	الأمانة	ج	الزهد	د	الصدق	
١٥	الحملة العسكرية التي يرسلها النبي ﷺ ولا يشارك فيها بـ:							
أ	الغزوة	ب	البعثة	ج	السرية	د	الفتح	

تابع خلف الورقة

السؤال الثاني : ضع إشارة (✓) امام الإجابة الصحيحة وإشارة (×) أمام الإجابة الخاطئة:

١	كان الرسول صلى الله عليه وسلم يتعبد في غار حراء	✓
٢	جميع اولاد النبي صلى الله عليه وسلم من زوجته خديجة ماعدا إبراهيم من مارية القبطية	✓
٣	مرضعة النبي ﷺ التي عاش معها في البادية هي حليمة السعدية	✓
٤	هاجر المسلمون الاوائل الى مصر	×
٥	كان النبي صلى الله عليه وسلم يوصف بين قومه بالصادق الأمين	✓
٦	الذي كفل الرسول صلى الله عليه وسلم بعد وفاة والدته هو عمه أبوطالب	×
٧	كانت السمة العامة للحالة السياسية في شبة الجزيرة العربية قبل الاسلام الاضطراب والنزاعات	✓
٨	فتح مكة كان في السنة ١٠من الهجرة	×
٩	صحب النبي عليه السلام عمه أبو طالب في رحلة تجارية إلى بلاد الشام	✓
١٠	بدأت بوادر الوحي على النبي صلى الله عليه وسلم بـالرؤيا الصادقة	✓
١١	الذي نجح في التفريق بين قريش وحلفائها في غزوة الخندق هو نعيم بن مسعود رضي الله	✓
١٢	أول عمل قام به نبينا في مكة بعد الفتح " المؤاخاة بين المهاجرين والأنصار "	×
١٣	تقع شبه الجزيرة العربية في قلب العالم وتربط بين ثلاث قارات " أفريقيا وأوروبا وآسيا "	✓
١٤	الصحابي الجليل الذي هاجر مع الرسول صلى الله عليه وسلم هو أبو بكر الصديق رضي الله عنه	✓
١٥	بدأت بوادر الوحي على النبي صلى الله عليه وسلم بـالرؤيا الصادقة	✓

السؤال الثالث :

أ- من اعمال النبي صلى الله علية وسلم في المدينة المنورة

١- المؤاخاة بين المهاجرين والأنصار.

٢- بناء المسجد النبوي. وكتابة وثيقة المدينة.

١- من أولاد النبي صلى الله علية وسلم الذكور

٢- إبراهيم. عبد الله.

٢- القاسم

انتهت الأسئلة

المملكة العربية السعودية
وزارة التعليم
الإدارة العامة للتعليم

المادة: الدراسات الاجتماعية
الصف: اول متوسط

٢٠

اختبار الوحدة الرابعة العصر النبوي

اسم الطالب/ـة: .....

السؤال الأول : ضعي إشارة (√) أو وعلامة (×) امام العبارات التالية :

١) تربط شبه الجزيرة العربية بين ثلاث قارات ( )

٢) بسبب انعدام الوحدة كثرت الحروب والخلافات في شبه الجزيرة العربية . ( )

٣) لم يؤثر موقع شبه الجزيرة العربية في التجارة البحرية. ( )

٤) نشطت التجارة في شبه الجزيرة العربية قبل الإسلام. ( )

٥) كان النبي صلى الله عليه وسلم يخلو في غار حراء يتفكر في الكون. ( )

٦) اهتم العرب قبل الإسلام بالمرأة وأعطوها حقها. ( )

٧) زاد الترابط الاجتماعي بعد مؤاخاة النبي صلى الله عليه وسلم بين المهاجرين والأنصار. ( )

٨) حدثت ثلاث بيعات في العقبة. ( )

٩) انجبت السيدة خديجة جميع أبناء النبي صلى الله عليه وسلم. ( )

١٠) نزل الوحي على النبي صلى الله عليه وسلم في غار حراء عام ٥٧١م. ( )

السؤال الثاني : اختاري الإجابة الصحيحة بوضع دائرة عليها:

١) كانت الهجرة إلى الحبشة في السنة ..... بعد الدعوة		
أ) الخامسة	ب) الرابعة	ج) السادسة
٢) أول زوجات النبي صلى الله عليه وسلم :		
أ) عائشة رضي الله عنها	ب) خديجة رضي الله عنها	ج) حفصة رضي الله عنها
٣) ولد النبي محمد صلى الله عليه وسلم في شهر :		
أ) ربيع أول	ب) محرم	ج) ربيع ثاني

٤) خير أرض الله يقصد بها :		
أ) مكة المكرمة	ب) المدينة المنورة	ج) الطائف
٥) انتشر الإسلام في المدينة على يد:		
أ) مصعب بن عمير	ب) عمر بن الخطاب	ج) بلال بن رباح
٦) أسلم من كبار قريش :		
أ) صهيب الرومي	ب) عمار بن ياسر	ج) حمزة بن عبد المطلب
٧) عندما أراد النبي صلى الله عليه وسلم أن يبلغ الدعوة لقريش صعد جبل :		
أ) المروة	ب) الصفا	ج) النور
٨) عدد بنات النبي صلى الله عليه وسلم		
أ) ٤ بنات	ب) ٣ بنات	ج) ٥ بنات

السؤال الثالث :

عللي ما يأتي :

١-رضاعة النبي صلى الله عليه وسلم في بني ساعدة:

.....

.....

٢-بناء النبي صلى الله عليه وسلم للمسجد النبوي :

.....

.....

نموذج الإجابة

الإدارة العامة للتعليم

مادة: الدراسات الاجتماعية

صف: اول متوسط

٢٠

اختبار الوحدة الرابعة العصر النبوي

اسم الطالب/ـة: .....

السؤال الأول : ضعي إشارة (√) أو وعلامة (×) امام العبارات التالية :

١) تربط شبه الجزيرة العربية بين ثلاث قارات (✓)

٢) بسبب انعدام الوحدة كثرت الحروب والخلافات في شبه الجزيرة العربية . (✓)

٣) لم يؤثر موقع شبه الجزيرة العربية في التجارة البحرية. (✗)

٤) نشطت التجارة في شبه الجزيرة العربية قبل الإسلام. (✓)

٥) كان النبي صلى الله عليه وسلم يخلو في غار حراء يتفكر في الكون. (✓)

٦) اهتم العرب قبل الإسلام بالمرأة وأعطوها حقها. (✗)

٧) زاد الترابط الاجتماعي بعد مؤاخاة النبي صلى الله عليه وسلم بين المهاجرين والأنصار. (✓)

٨) حدثت ثلاث بيعات في العقبة. (✗)

٩) انجبت السيدة خديجة جميع أبناء النبى صلى الله عليه وسلم. (✗)

١٠) نزل الوحي على النبى صلى الله عليه وسلم في غار حراء عام ٥٧١م. (✗)

السؤال الثاني : اختاري الإجابة الصحيحة بوضع دائرة عليها:

١) كانت الهجرة إلى الحبشة في السنة ..... بعد الدعوة		
أ) الخامسة	ب) الرابعة	ج) السادسة
٢) أول زوجات النبي صلى الله عليه وسلم :		
أ) عائشة رضي الله عنها	ب) خديجة رضي الله عنها	ج) حفصة رضي الله عنها
٣) ولد النبي محمد صلى الله عليه وسلم في شهر :		
أ) ربيع أول	ب) محرم	ج) ربيع ثاني

٤) خير أرض الله يقصد بها :		
أ) مكة المكرمة	ب) المدينة المنورة	ج) الطائف
٥) انتشر الإسلام في المدينة على يد:		
أ) مصعب بن عمير	ب) عمر بن الخطاب	ج) بلال بن رباح
٦) أسلم من كبار قريش :		
أ) صهيب الرومي	ب) عمار بن ياسر	ج) حمزة بن عبد المطلب
٧) عندما أراد النبي صلى الله عليه وسلم أن يبلغ الدعوة لقريش صعد جبل :		
أ) المروة	ب) الصفا	ج) النور
٨) عدد بنات النبي صلى الله عليه وسلم		
أ) ٤ بنات	ب) ٣ بنات	ج) ٥ بنات

السؤال الثالث :

عللي ما يأتي :

١-رضاعة النبي صلى الله عليه وسلم في بني ساعدة:

.... كان من عادة أشراف العرب إرسال ابنائهم الى المرضعات في البادية حفاظا على سلامة لغتهم من الخطأ وفصاحة ألسنتهم وصحة أجسادهم.....

٢-بناء النبي صلى الله عليه وسلم للمسجد النبوي :

.... لتظهر فيه شعائر الإسلام التي طالما حوربت، ولتقام فيه الصلوات التي تربط المرء برب العالمين وتنقي القلب من أدران الأرض، وأدناس الحياة الدنيا.....

المملكة العربية السعودية	إدارة تعليم	المادة : الدراسات الاجتماعية
وزارة التعليم	مدرسة	الصف: الأول متوسط
اسم الطالب:		اختبار الفترة الثانية

السؤال الأول : ضع إشارة (✓) امام الإجابة الصحيحة وإشارة (×) أمام الإجابة الخاطئة:

١	الذي كفل الرسول صلى الله عليه وسلم بعد وفاة والدته هو عمه أبوطالب	
٢	بدأت بوادر الوحي على النبي صلى الله عليه وسلم بـالرؤيا الصادقة	
٣	كان الرسول صلى الله عليه وسلم يتعبد في غار حراء	
٤	الصحابي الجليل الذي هاجر مع الرسول صلى الله عليه وسلم هو أبو بكر الصديق رضي الله عنه	
٥	تزوج الرسول صلى الله عليه وسلم من خديجة رضي الله عنها وعُمرُه ٣٥سنة	
٦	فتح مكة كان في السنة ١٠من الهجرة	
٧	صحب النبي صلى الله عليه وسلم عمه أبو طالب في رحلة تجارية إلى بلاد الشام	
٨	الغزوة هي المعركة التي قادها النبي صلى الله عليه وسلم بنفسه	
٩	تقع شبه الجزيرة العربية في قلب العالم وتربط بين ثلاث قارات " أفريقيا وأوروبا وآسيا "	
١٠	الذي نجح في التفريق بين قريش وحلفائها في غزوة الخندق هو نعيم بن مسعود رضي الله	
١١	اشار على النبي بحفر الخندق في غزوة الأحزاب (الخندق)	
١٢	جميع اولاد النبي صلى الله عليه وسلم من زوجته خديجة ماعدا إبراهيم من مارية القبطية	
١٣	السرية هي المعركة التي قادها النبي صلى الله عليه وسلم بنفسه	
١٤	هاجر المسلمون الاوائل الى مصر	
١٥	كان النبي صلى الله عليه وسلم يوصف بين قومه بالصادق الأمين	
١٦	كانت السمة العامة للحالة السياسية في شبة الجزيرة العربية قبل الاسلام الاضطراب والنزاعات	
١٧	أول عمل قام به نبينا في مكة بعد الفتح " المؤاخاة بين المهاجرين والأنصار "	
١٨	صحب النبي عليه السلام عمه أبو طالب في رحلة تجارية إلى بلاد العراق	
١٩	نزل الوحي على النبي صلى الله عليه وسلم وعمره ٤٠سنة	
٢٠	كان حصار الشّعب في السنة ٥ من البعثة	